NAMA : ''''''

5. Perhatikan gambar berikut

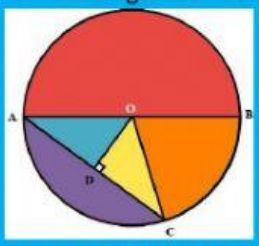

Titik pusat pada lingkaran tersebut adalah titik ... .

a)O

b)A

c)C

d)D

6. Perhatikan gambar berikut !

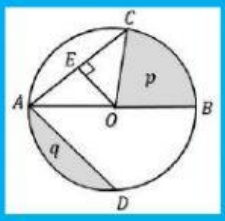

Diameter pada lingkaran tersebut ditunjukkan oleh garis

a)AD

b)OC

c)EO

d)AB

7. Garis EO pada gambar lingkaran berikut adalah ...

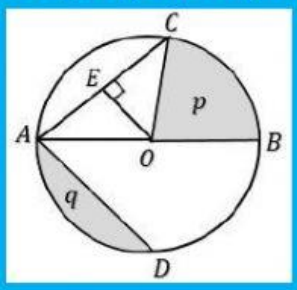

a)jari-jari

b)Apotema

c)diameter

d)busur

8. Perhatikan gambar berikut !

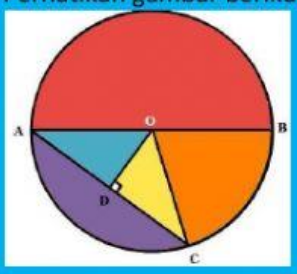

Selain garis lengkung BC, busur lingkaran pada gambar tersebut adalah ...

LIVEWORKSHEETS

a) Garis lurus AC
b) Garis lengkung AB
c) Garis lurus AB
d) Garis lurus OD

9. Perhatikan gambar tersebut !

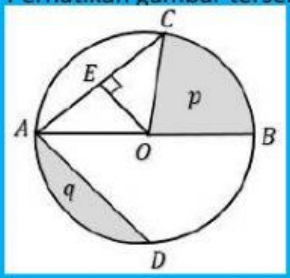

Pernyataan berikut yang benar adalah ...
a) Daerah p merupakan tembereng
b) Daerah q merupakan tembereng
c) Garis AC merupakan busur
d) Garis lengkung BD merupakan juring

10. Gambar berikut ini yang menunjukkan juring adalah ....

a) 

b)

c)

d)

LIVEWORKSHEETS