Elementos de la Parábola

Instrucciones: Arrastra cada recuadro, para determinar cada elemento de la parábola.

Ecuación	Foco	LLR	Directriz	Dirección en la que abre	Gráfica
$x^2=8y$					
$y^2=4x$					
$y^2=-16x$					
$x^2=-12y$					

La coordenada del vértice en las parábolas anteriores es _____

derecha | y=3 | x=4 | (0,2) | x=-1 | Izquierda | (1,0) | abajo

arriba | 8 | y=-2 | 16 | (0,0) | (-4,0) | 4 | (0,-3) | 12

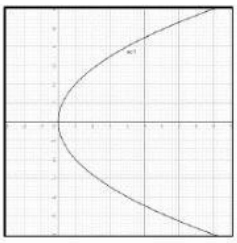
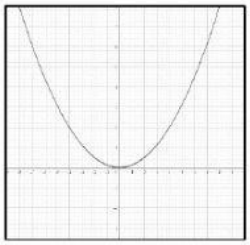
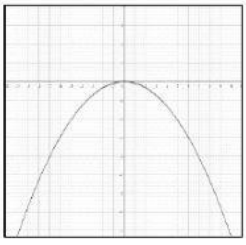
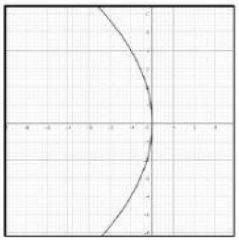

LIVEWORKSHEETS