PHIẾU BÀI TẬP CUỐI TUẦN 34

***Họ và tên:*……..*Lớp*……**

Câu 1: Tính nhẩm

300 + 600 =

500 – 400 =

900 – 300 – 50 =

700 + 300 =

1000 – 800 =

500 – 200 + 50 =

Câu 2: Tính

222	69	647	126
+ 431	+ 109	- 216	+ 53
--------	--------	--------	--------

Câu 3: Nối



LIVEWORKSHEETS
LIVEWORKSHEETS

Câu 4: Điền các dấu tương ứng vào chỗ trống : > < =

280 + 300 ….. 280 + 30

350 – 150 …… 200 + 50

500 + 300 +200 …… 900 +100

420 – 20 + 100 …… 500 + 150

Câu 5: Nối

LIVEWORKSHEETS
LIVEWORKSHEETS

Câu 6: Số

- Có ☐ hình tam giác

- Có ☐ hình tứ giác

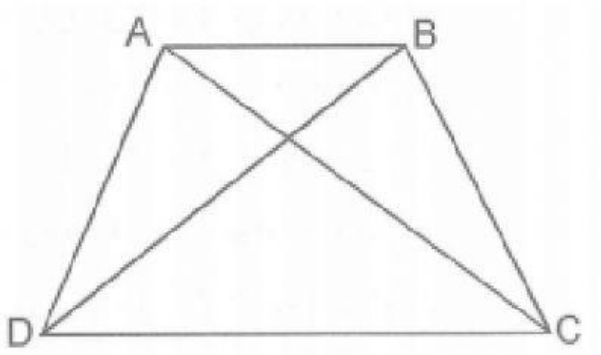

Câu 7: Đồng hồ chỉ mấy giờ?



Câu 8 : Đúng ghi (Đ), sai ghi (S)

704 + 25 = 729 ☐ 724 – 4 = 720 ☐

300 + 200 – 50 = 50 ☐ 596 – 95 = 501 ☐

Câu 9: Tính nhẩm

2 x 7 =	5 x 3=	12 : 2 =
2 x 4 =	5 x 5 =	15 : 5 =
2x 5 =	5 x 6 =	20 : 2 =

LIVEWORKSHEETS
LIVEWORKSHEETS

Câu 10: Trên một chuyến xe buýt có 120 học sinh cấp lớp 1 và 252 học sinh lớp 5 . Hỏi trên chiếc xe buýt có bao nhiêu học sinh

Số học sinh trên chiếc xe buýt là

☐ ○ ☐ = ☐ (học sinh)

Đáp số: ☐ học sinh

LIVEWORKSHEETS
LIVEWORKSHEETS