عنوان الدرس	شبه المنحرف والطائرة الورقية	نواتج التعلم	تطبيق خواص طية شبه المنحرف

جـــــد قياس كل مما يلي.

1. $m\angle D$

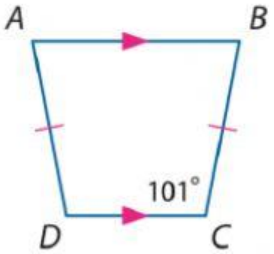

2. WT. إذا كان $ZX = 20$ و $TY = 15$

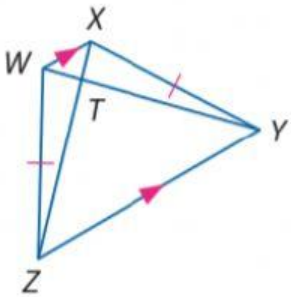

5. إجابة شبكية في الشكل الموجود على اليسار، $\overline{YZ}$ هو عبارة عن منصف ساقي شبه المنحرف $TWRV$. حدد قيمة x.

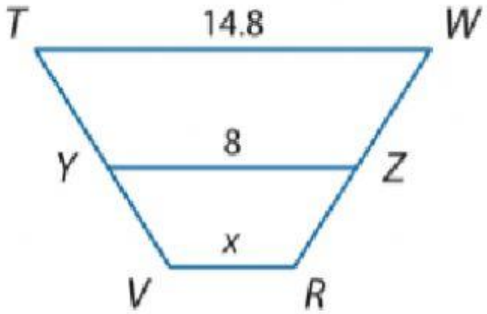

عنوان الدرس	شبه المنحرف والطائرة الورقية	نواتج التعلم	تطبيق خواص طية شبه المنحرف

11 PW، وإذا كان $XZ = 18$ و $PY = 3$

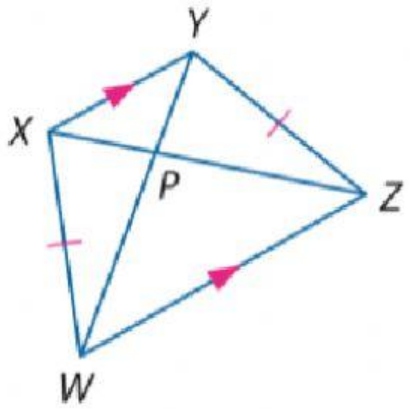

بالنسبة لشبه المنحرف $QRTU$، يمثل V و S نقطتي منتصف الساقين.

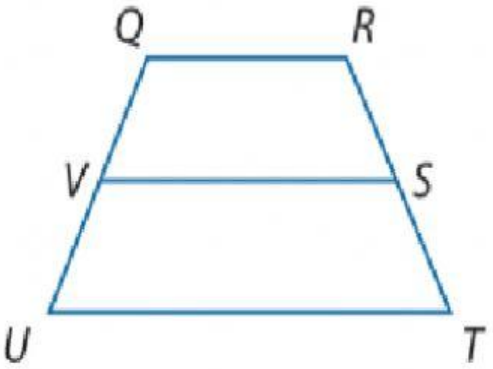

16. إذا كان $UT = 22$ و $QR = 12$، فجد VS.

17. إذا كان $UT = 16$ و $QR = 4$، فجد VS.

18. إذا كان $UT = 12$ و $VS = 9$، فجد QR.

19. إذا كان $SV = 17$ و $TU = 26$، فجد QR.

21. إذا كان $VS = 11$ و $RQ = 5$، فجد UT.

20. إذا كان $VS = 7$ و $QR = 2$، فجد UT.