COLEGIO HILL
CICLO ESCOLAR 2021 - 2022
PERIODO JUNIO – JULIO
CUARTO GRADO

EXAMEN DE MATEMÁTICAS

Nombre: _____ **Fecha:**_____

Aciertos: _____ **Calificación:** _____

Instrucciones: realiza las siguientes operaciones:

	9	3.	4	2				9	6	7.	3	6	
	7	6.	9	6			-	7	9	6.	8	6	
+	3	5.	7	1									
	8	9	7	7			4	9	9	9	8	7	5
x			9	9									
	7	3	6	0	9	7	8						

LIVEWORKSHEETS

COLEGIO HILL
CICLO ESCOLAR 2021 - 2022
PERIODO JUNIO – JULIO
CUARTO GRADO

Instrucciones: dibuja un polígono irregular con un área de 19 unidades cuadradas y un polígono regular con un perímetro de 24 unidades.

Instrucciones: escribe el área y perímetro de cada figura

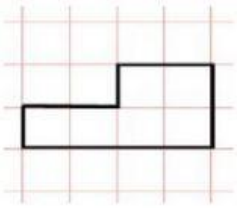

A= _____

P= _____

A=

P=

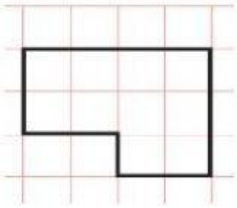

_____

_____

LIVEWORKSHEETS

COLEGIO HILL
CICLO ESCOLAR 2021 - 2022
PERIODO JUNIO – JULIO
CUARTO GRADO

Instrucciones: en la siguiente serie de figuras, encuentra tres pares de polígonos que miden lo mismo de área y de perímetro y encierra cada par de un mismo color.

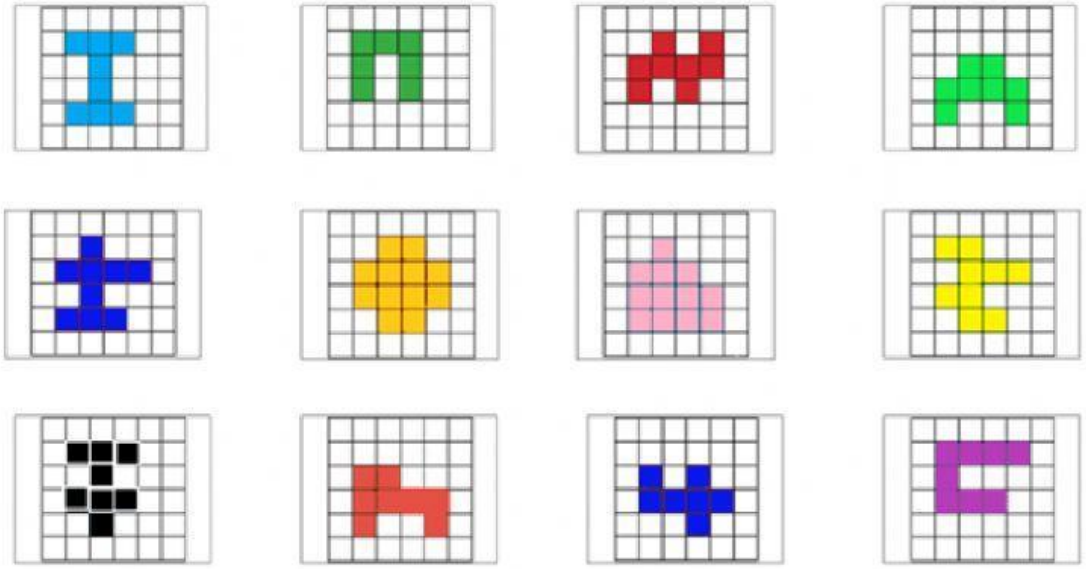

LIVEWORKSHEETS

COLEGIO HILL
CICLO ESCOLAR 2021 - 2022
PERIODO JUNIO – JULIO
CUARTO GRADO

Instrucciones: escribe la fórmula para obtener el área de un rectángulo y obtén el área de los rectángulos que se muestran, recuerda indicar le unidad de superficie que corresponde.

Fórmula_____

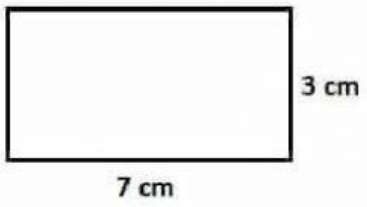

A= _____



A= _____



A= _____

LIVEWORKSHEETS

COLEGIO HILL
CICLO ESCOLAR 2021 - 2022
PERIODO JUNIO – JULIO
CUARTO GRADO

Instrucciones: resuelve los siguientes problemas

1.- Los alumnos de cuarto grado de colegio Hill, quieren organizar un viaje, el cual cuesta $10,500 pesos, si son 15 alumnos ¡Cuánto dinero tendrá que pagar cada alumno?

Cada alumno pagará _____ pesos

- .-Si cada alumno deberá llevar $320 pesos, para sus alimentos diarios, y el viaje durará tres días ¿Cuánto dinero deberán llevar en total para sus alimentos?

Cada alumno deberá llevar _____ pesos para la comida.

- ¿Cuánto será el gasto total de cada alumno para al realizar el viaje?

Cada alumno gastará en total _____ pesos

LIVEWORKSHEETS