ชื่อ-นามสกุล _____ ชั้น ม.1/___ เลขที่ ___

**กิจกรรมที่ 2** พิจารณาจุดยอดซึ่งเป็นส่วนหนึ่งของข่ายงาน ให้แสดงว่าจุดยอดในแต่ละข้อต่อไปนี้เป็นจุดยอดคี่หรือจุดยอดคู่

1.

2.



3.



4.

5.

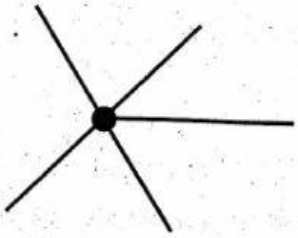

LIVEWORKSHEETS

6.

7.

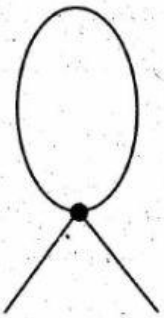

8.

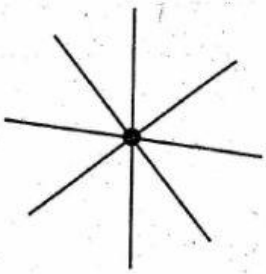

LIVEWORKSHEETS