EXÁMENES ACADEMIA 3D

RALLY NACIONAL DE MATEMÁTICA

5 AÑOS - NIVEL INICIAL

GRUPO DE ESTUDIOS DE ALTO RENDIMIENTO ACADÉMICO

Nombres y apellidos:

Teléfono:

PREGUNTA 01:
¿Cuántos pares de pelotas hay en total?
Marca con (x) tu respuesta.

2 3 4

PREGUNTA 03:
¿Cuántas abejitas están volando?
Marca con (x) tu respuesta.

8 10 12

PREGUNTA 02:
¿Cuántos lados tiene la figura?
Marca con (x) tu respuesta.



4 5 6

PREGUNTA 04:
¿Cuántos perritos faltan para tener 5?
Marca con (x) tu respuesta.

1 2 3

LIVEWORKSHEETS

PREGUNTA 05:
Cuenta la mitad de las manzanas.
Marca con (x) tu respuesta.

2 3 6

PREGUNTA 06:
Marca con una (x) donde hay tres peras:

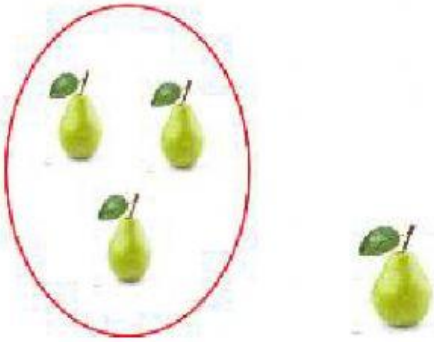

PREGUNTA 07:
¿Qué número falta en la sucesión?



14 15 16

PREGUNTA 08:
Completa el número que falta:

5	+	6	=	

10 11 12

PREGUNTA 09:
¿Cuántos globos tiene el niño?

6 7 8

PREGUNTA 10:
¿Qué número continúa?

2	4	6	

6 7 8

LIVEWORKSHEETS