ชื่อ _____ ห้อง _____ เลขที่ _____

<u>คำสั่ง</u> ให้นักเรียนเลือกกระบวนการคิดกับสัญลักษณ์ในการคิดน้ำหนักมาตรฐานของเพศชายและเพศหญิง โดยถ้าเพศชาย สูตรคิดน้ำหนักคือ ส่วนสูง –100 (เซ็นติเมตร) เพศหญิง สูตรคิดน้ำหนัก คือ ส่วนสูง – 110 (เซ็นติเมตร)

เริ่มต้น	จบ	ถ้าเป็นเพศชาย	ส่วนสูงเพศหญิง	ส่วนสูงเพศชาย
เพศ	น้ำหนักเพศชาย	น้ำหนักเพศหญิง	น้ำหนักเพศชาย=ส่วนสูง – 100	
			น้ำหนักเพศหญิง=ส่วนสูง – 110	

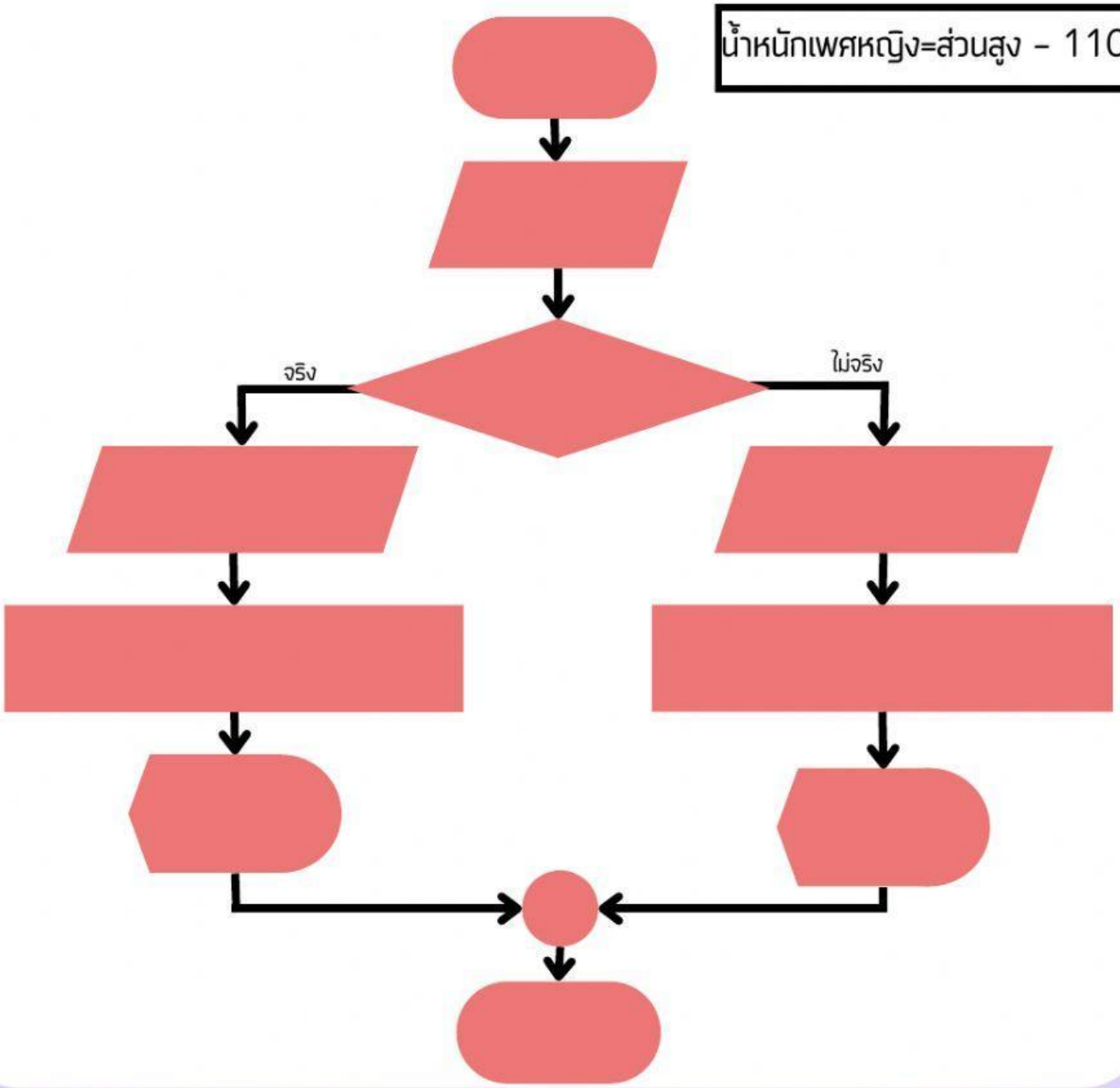

LIVEWORKSHEETS

<u>คำสั่ง</u> ให้นักเรียนเลือกสัญลักษณ์ให้ตรงกับกระบวนการในการคิดค่าเงาะ โดยแม่ค้าขายเงาะกิโลกรัมละ 30 บาท แต่ถ้าซื้อเงาะมากกว่า 5 กิโลกรัม แม่ค้าจะคิดค่าเงาะกิโลกรัมละ 25 บาท

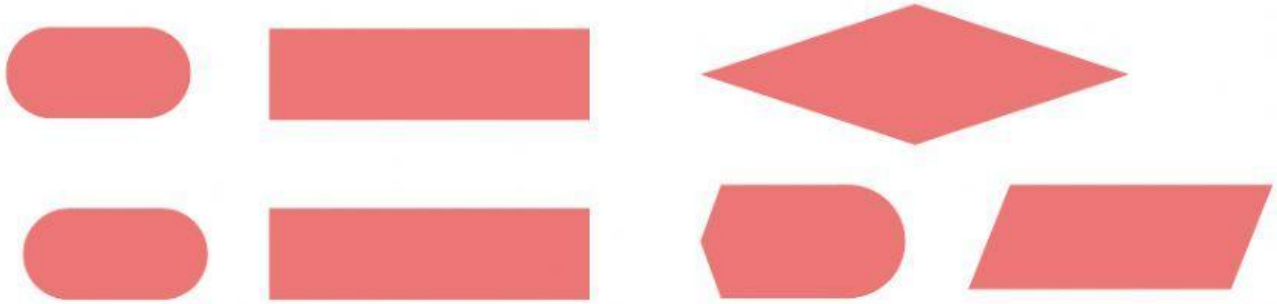

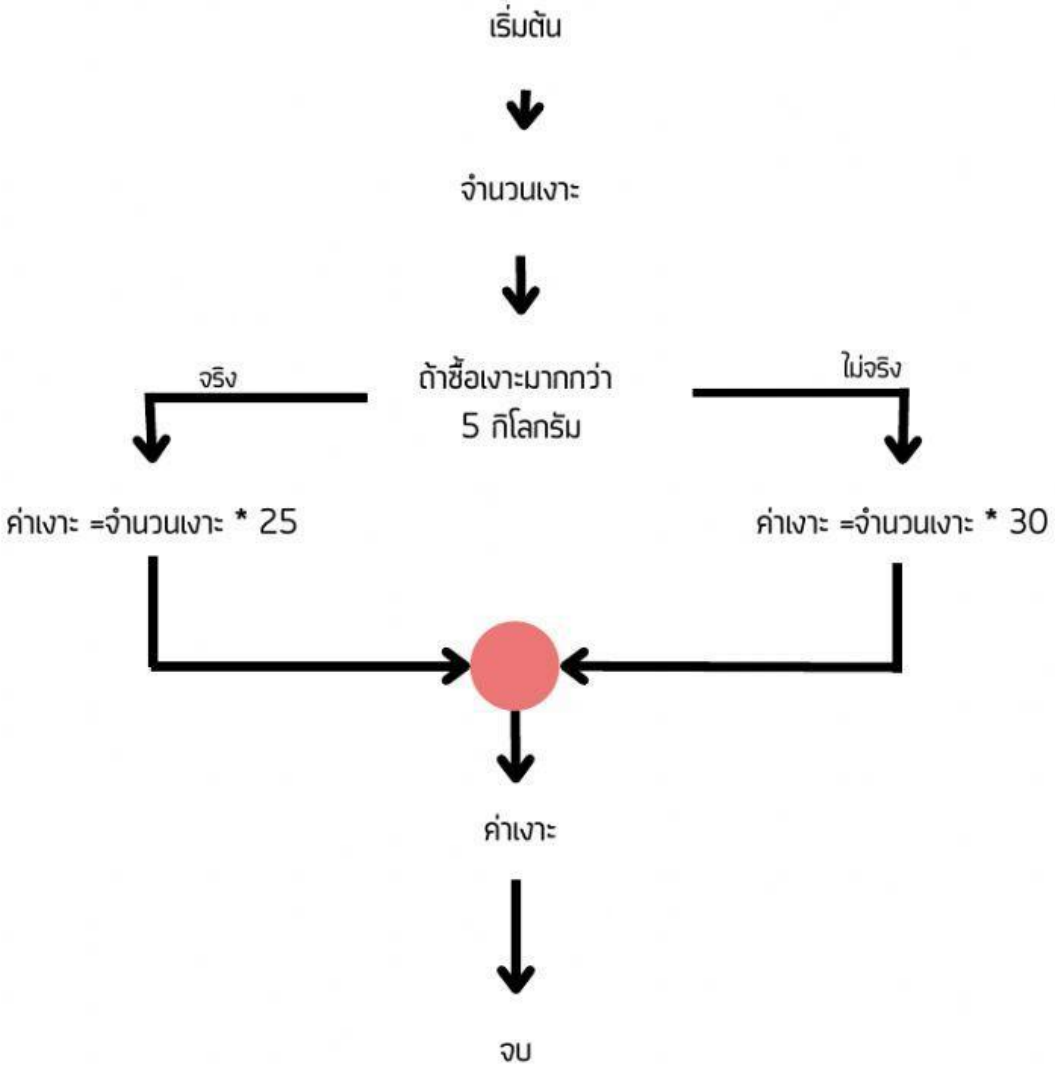

LIVEWORKSHEETS