	U. E. CASA DE LA CULTURA ECUATORIANA *"BENJAMÍN CARRIÓN"* EVALUACIÓN -- II PARCIAL -- II QUIMESTRE -- 2021-2022		***L.MATEMÀTICO***
NOMBRE:		FECHA: __/___/2022	Nota:
CURSO:	INICIAL 1	Lic. BEATRIZ SALAZAR	

1.-SLECCIONA EL RECUADRO QUE CORRESPONDE AL NUMERO.

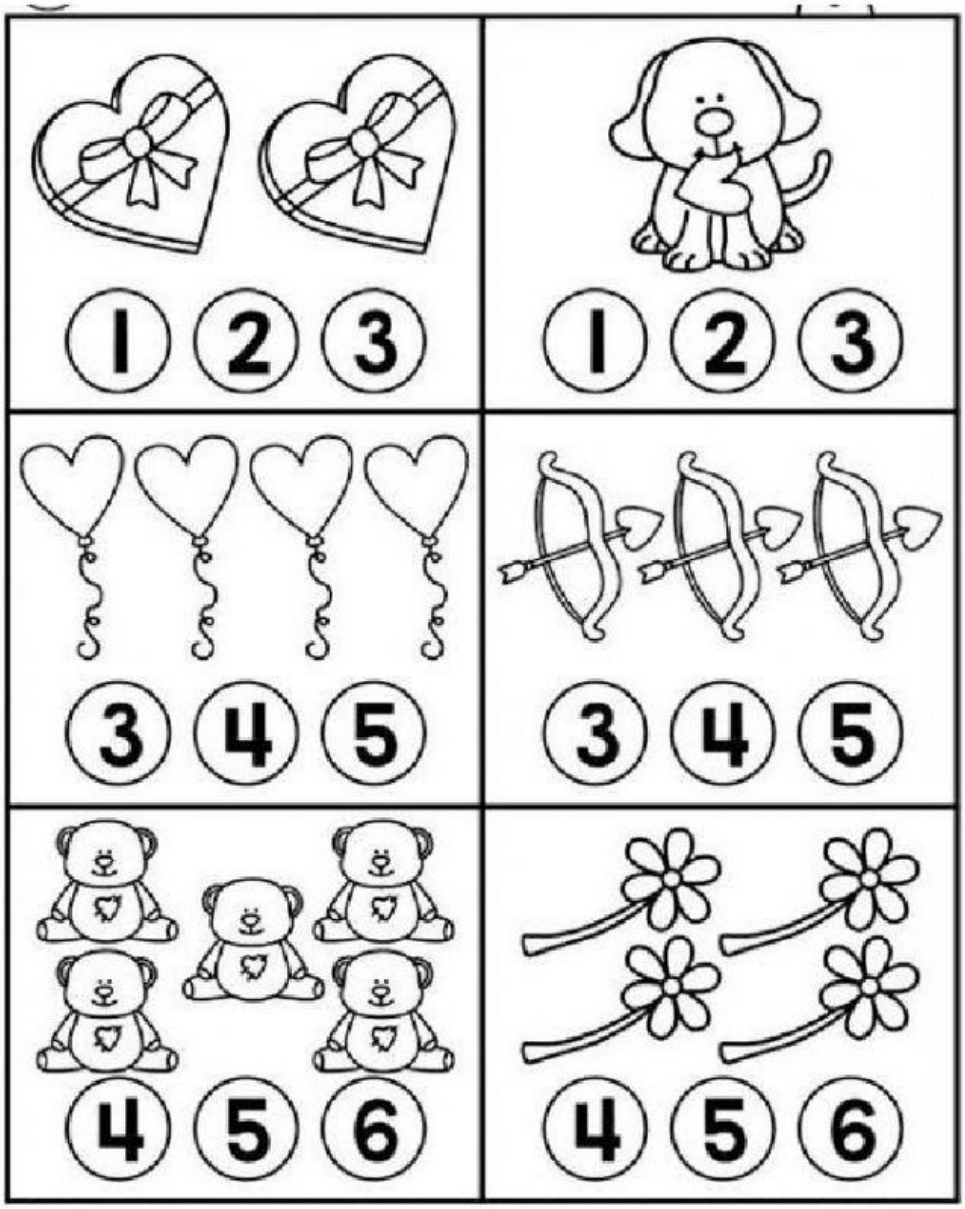

LIVEWORKSHEETS

2.-ARRASTRA EL CUADRO QUE TIENE 10 ELEMENTOS.

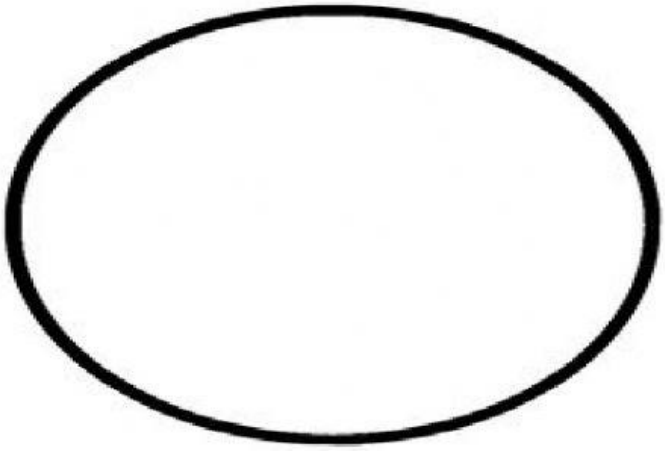







3.- UNA LA FIGURA GEOMETRICA CON SU RESPECTIVA SOMBRA.









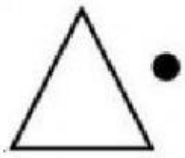







LIVEWORKSHEETS

4.-ARRASTRA EL OBJETO MAS PESADO.





5.-UBICA LOS COLORES QUE NECESITAMOS PARA O BTENER EL COLOR.





6.-UNE LOS ANIMALITO S QUE TIENEN MANCHAS.



















LIVEWORKSHEETS

7.-SELECCIONE EL CONJUNTO QUE TIENE 7 ELEMENTOS.





8.-ESCRIBE EL NUMERO QUE FALTA.

1 2 3 4

5 6 7

☐ 9 0

LIVEWORKSHEETS