Ministerio de Educación	**UNIDAD EDUCATIVA 11 DE NOVIEMBRE** **2021-2022** **EVALUACIÓN SEGUNDO QUIMESTRE**	

SUBNIVEL:	ELEMENTAL			**GRADO / CURSO:**	4TO A-B
ÁREA:	CIENCIAS SOCIALES	**ASIGNATURA:**	ESTUDIOS SOCIALES	**QUIMESTRE:**	2DO
DOCENTE:	Lcda. Janeth Uvillus; Tgla. Gabriela Suarez; Ing. Ana Toala; Lcda. Sara Hidalgo				
ESTUDIANTE:				**FECHA:**	

INDICACIONES:

- Lea todas las preguntas detenidamente para contestar con la respuesta que Ud. Crea es la correcta.
- Realice la presente evaluación dentro del tiempo requerido (1 hora)
- Utilice esferográfico para completar las preguntas, evite utilizar corrector y hacer manchones.
- El ejercicio individual de reflexión permite al estudiante evidenciar la comprensión sobre los temas fundamentales de la asignatura trabajados durante el segundo quimestre, para ello, el estudiante realizará una reflexión sobre la base de preguntas orientadoras elaboradas por el docente. Las reflexiones se calificarán de acuerdo con la rúbrica de evaluación. *(Tomado de: Instructivo de evaluación estudiantil, Régimen Sierra-Amazonía 2021-2022, p. 4).*

NRO.	PREGUNTAS	PUNTAJE TOTAL
1.	**Escoja la respuesta correcta**	**1 PUNTO**
	1.1 ¿Cuántos continentes existen en el planeta tierra? a) 6 b) 7 b) 5 c) Ninguna de las anteriores	**0,50 p**
	1.2 ¿Los continentes que existen en el planeta tierra son? a) América, Sur América, Antártida, Polo Sur, Alaska, Europa b) Europa, Asia, Oceanía, América, Antártida, África. c) Colombia, La Galaxia, Asia, África, Alaska, Polo Norte d) Ninguna de las anteriores	**0,50 p**
2.	**Una con línea la respuesta correcta**	**1 PUNTO**
	2.1 Las regiones del Ecuador son: a) Sierra 1. Galápagos b) Oriente 2. Litoral c) Costa 3. Amazonía d) Insular 4. Interandina	
3.	**Completa el siguiente texto con las palabras del recuadro**	**1 PUNTO**

LIVEWORKSHEETS

Ministerio de Educación	**UNIDAD EDUCATIVA 11 DE NOVIEMBRE** **2021-2022** **EVALUACIÓN SEGUNDO QUIMESTRE**	

	3.1 ¿Qué es la minga? La minga es_____ es una forma de conservación donde _____ y es trabajo dentro de las comunidades. **3.2 ¿Cuál es su importancia?** trabajo compartido, acuden, aportan, vivimos _____ todos los comuneros. _____ esfuerzo físico.	**0,50 p** **0,50p**
4.	**Encierra en un círculo.**	**1 PUNTO**
	4.1 ¿Quién dirige al país escoge la foto de quién nos representa como presidente de la República del Ecuador 	
5.	**Encierra en un círculo.**	**1 PUNTO**
	5.1 ¿Quién dirige al cantón? a) Prefecto b) Gobernador c) Presidente de la Junta Parroquial d) Alcalde	
6.	**Señale la respuesta correcta.**	**1 PUNTO**
	6.1 Seleccionar cuál de estos personajes históricos fueron destacados en el Ecuador.    EUGENIO ESPEJO MARIA PARADO MANUELA CAÑIZARES	
7.	**Subraya la respuesta correcta.**	**1 PUNTO**
	7.1 ¿Cuál fue el nombre del proyecto N° 12?	

LIVEWORKSHEETS

Ministerio de Educación	**UNIDAD EDUCATIVA 11 DE NOVIEMBRE** **2021-2022** **EVALUACIÓN SEGUNDO QUIMESTRE**	

	a) Democracia en Familia b) No me gusta la Democracia c) Votaciones escolares d) Ninguna de las anteriores 1) 2) 3)	
8.	**Con tus propias palabras escribe qué te pareció el proyecto N°12 Democracia en Familia y que t gusto de este proyecto.**	**1 PUNTO**
	_____ _____ _____	
9.	**Armar la familia cuida a sus hijos ante algún abuso o violencia.**	**1 PUNTO**
10.	**Anota cuáles serían tus responsabilidades que tienes dentro del hogar.**	**1 PUNTO**
	_____ _____ _____	

ELABORADO POR	REVISADOR POR:	APROBADO POR:
Docente: Lcda. Janeth Uvillus; Tgla. Gabriela Suarez; Ing. Ana Toala; Lcda. Sara Hidalgo	**Coordinador de Área:** MSc. Patricia Quinaluisa	**Vicerrectorado:** MATUTINA:MSc. Sandra Cola VESPERTINA:Lic. Clara Moncayo
Firma:	Firma:	Firma:
Fecha: 20-06-2021	Fecha: 20-06-2021	Fecha: 20-06-2021

LIVEWORKSHEETS