Площадь и периметр

Дата:_____ Имя:_____

Викторина с несколькими вариантами ответов.
Установите флажки, чтобы записать ответ

1. **Вычислите площадь квадрата, если его периметр равен 32 см.**

A ☐ 64 см ^{2} B ☐ 81 см ^{2}

C ☐ 36 см ^{2}

2. **Вычислите площадь закрашенной части.**

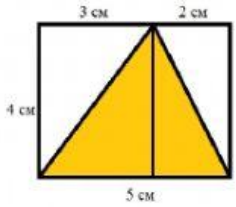

A ☐ 12 см ^{2} B ☐ 10 см ^{2}

C ☐ 20 см ^{2}

3. **Вычислите периметр фигуры.**

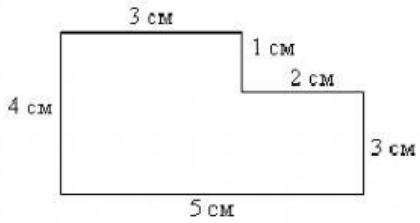

A ☐ 14 см B ☐ 12 см

C ☐ 18 см

4. **Вычислите площадь закрашенной части, если длина квадрата равна 6 см.**



A ☐ 10 см ^{2}

B ☐ 9 см ^{2}

C ☐ 18 см ^{2}

5. **Во дворе стояло 90 трехколесных и двухколесных велосипедов. Колес - 210 . Сколько двухколесных велосипедов?**

A ☐ 60

B ☐ 90

C ☐ 30

Wordwall
wordwall.net/r/33825685
LIVEWORKSHEETS