PRÁCTICA CALIFICADA N°3

Nombre: _____

Fecha: _____

Competencia 3: Resuelve problemas de forma, movimiento y localización

1. Indica los elementos de un polígono.

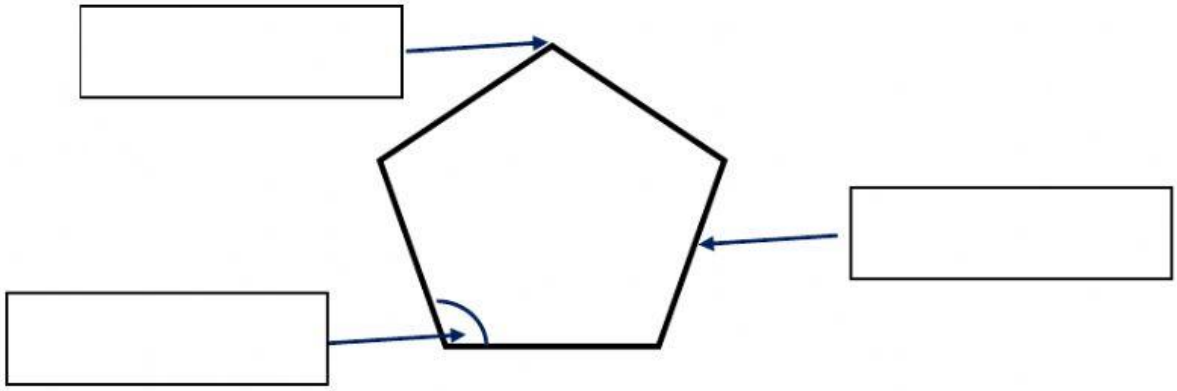

2. Observa e indica el nombre de los polígonos según sus lados.

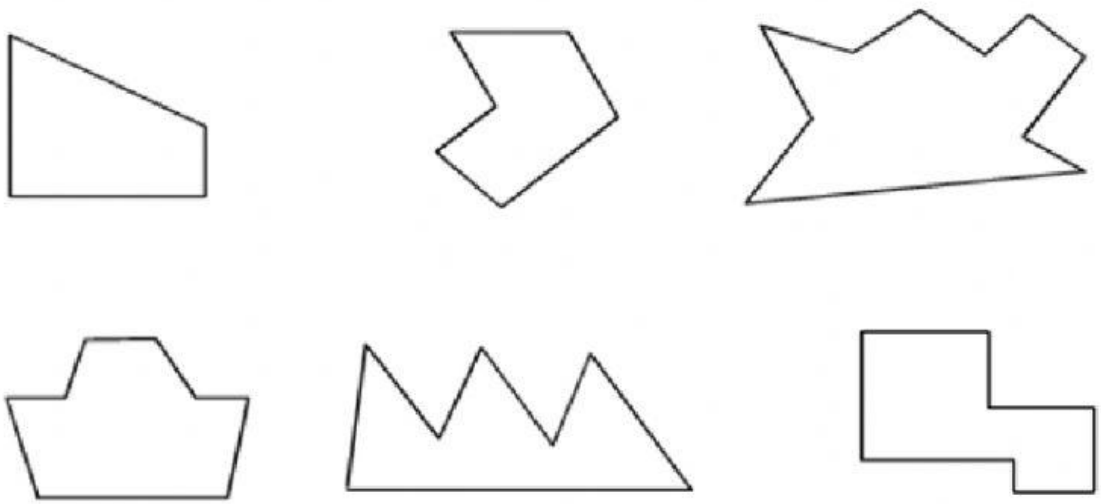

Mrs. Muñoz
4° Grado

LIVEWORKSHEETS

3. Lee cada enunciado e identifica el polígono que cumple con las características indicadas, ubicándolo en lugar correcto.

Tiene cuatro lados iguales y sus ángulos no son rectos.	Es el polígono con el menor número de lados.	Sus lados son iguales dos a dos y sus cuatro ángulos son rectos.	Es un polígono que tiene seis vértices y seis lados iguales.

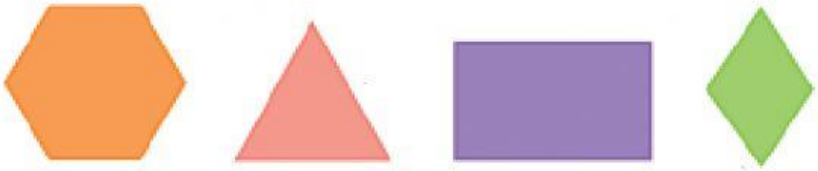

4. Une cada triángulo con el número de lados correspondientes.

Equilátero	Dos lados iguales
Isósceles	Tres lados desiguales
Escaleno	Tres lados iguales

Mrs. Muñoz
4° Grado

LIVEWORKSHEETS

5. Lee y escribe el nombre del triángulo, según sus ángulos.

obtusángulo – rectángulo - acutángulo

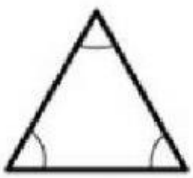	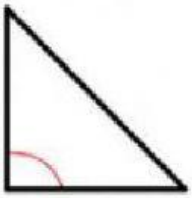	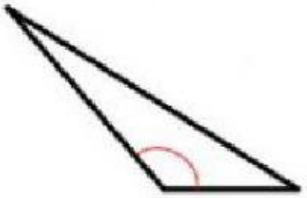
Triángulo ☐ 3 ángulos agudos.	Triángulo ☐ 1 ángulo recto.	Triángulo ☐ 1 ángulo obtuso.

6. Observa el transportador, escribe la medida del ángulo y su clase.

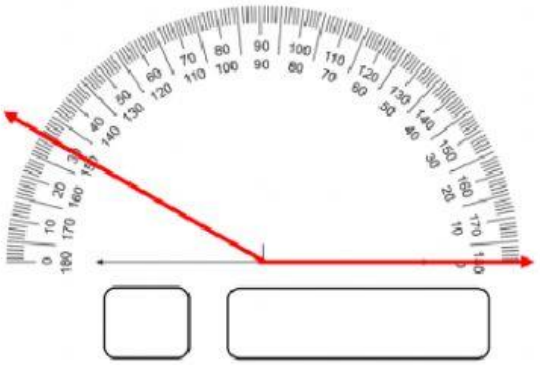

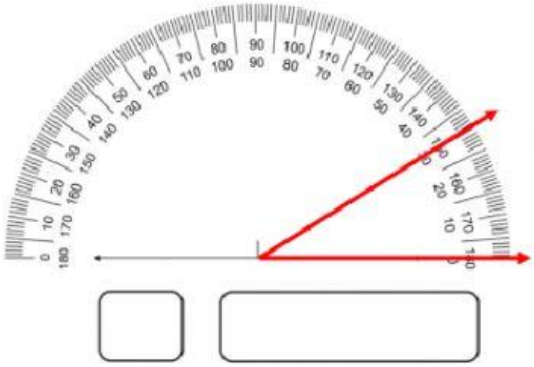

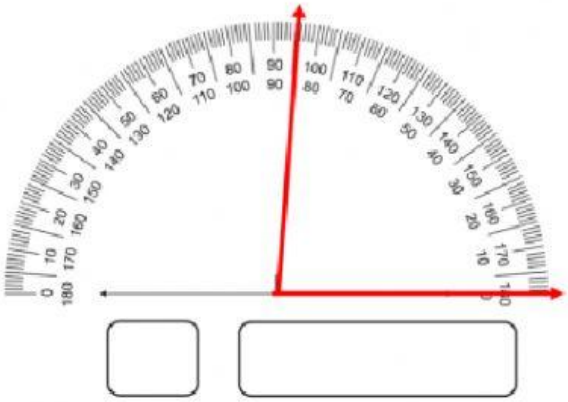

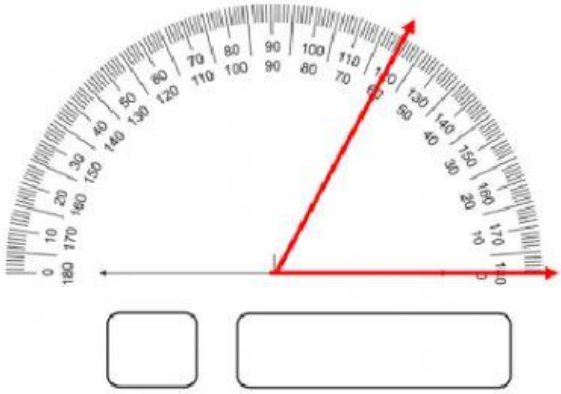

Mrs. Muñoz
4° Grado

LIVEWORKSHEETS