CALCULANDO...





Escribe las cantidades que correspondan

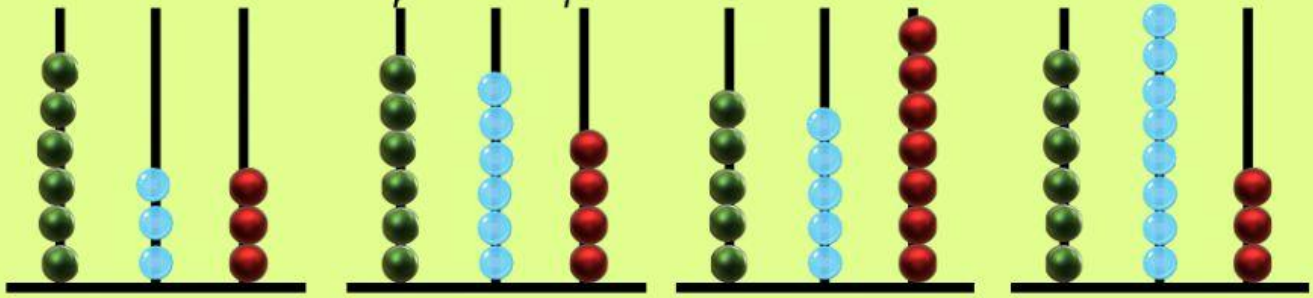

Ahora dibuja tú en los ábacos las centenas, decenas y unidades que se indican

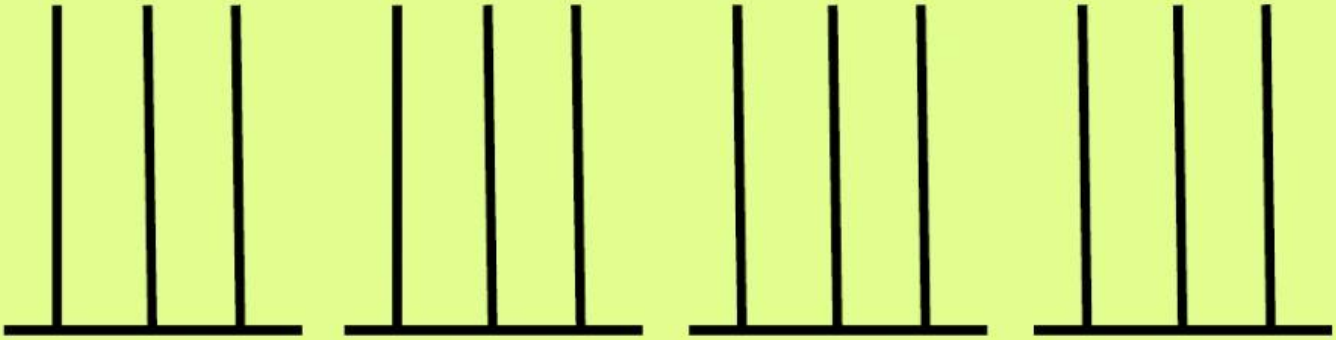

669 | 674 | 627 | 615

¿Qué número soy?



Tengo:
seis centenas
seis decenas
siete unidades

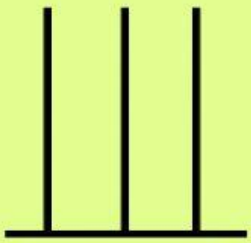

Soy el número
Me escribo:_____

Tengo:
seis centenas
dos decenas
tres unidades

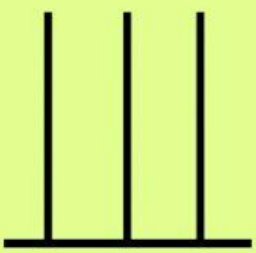

Soy el número
Me escribo:_____





LIVEWORKSHEETS