Внимателно прочетете условията на задачите.
Решенията запишете в тетрадките си.

1 Определи вида на триъгълниците според ъглите.

Намери обиколката на единия от тях в милиметри.

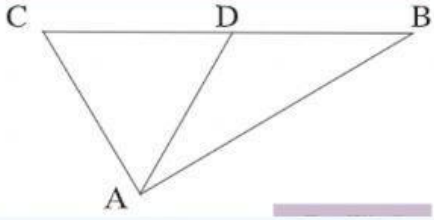

2 Пресметни произведенията в тетрадката си

а)	б)
72 . 3	(30 . 6 + 51) . 4
6 . 41	190 . 2 – 160 . 2
0 . 89	(1000 – 161 . 6) . 2
151 . 5	(700 – 569) . 7
140 . 3	243 . 3 – 729

3 Намери обиколките на:
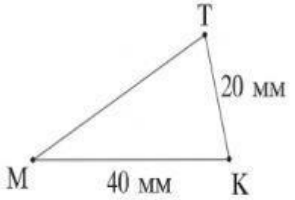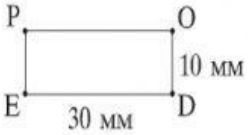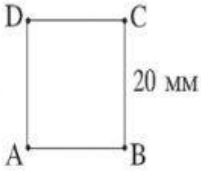
а) равнобедрения триъгълник; б) правоъгълника; в) квадрата.