Worksheet 2

Name: ..... Class: ..... No: .....

Neuron

ให้นักเรียนระบุองค์ประกอบของเซลล์ประสาท จัดจำแนกเซลล์ประสาท โดยนำคำและรูปภาพที่กำหนดให้เติมลงในช่องว่างที่ให้ถูกต้อง

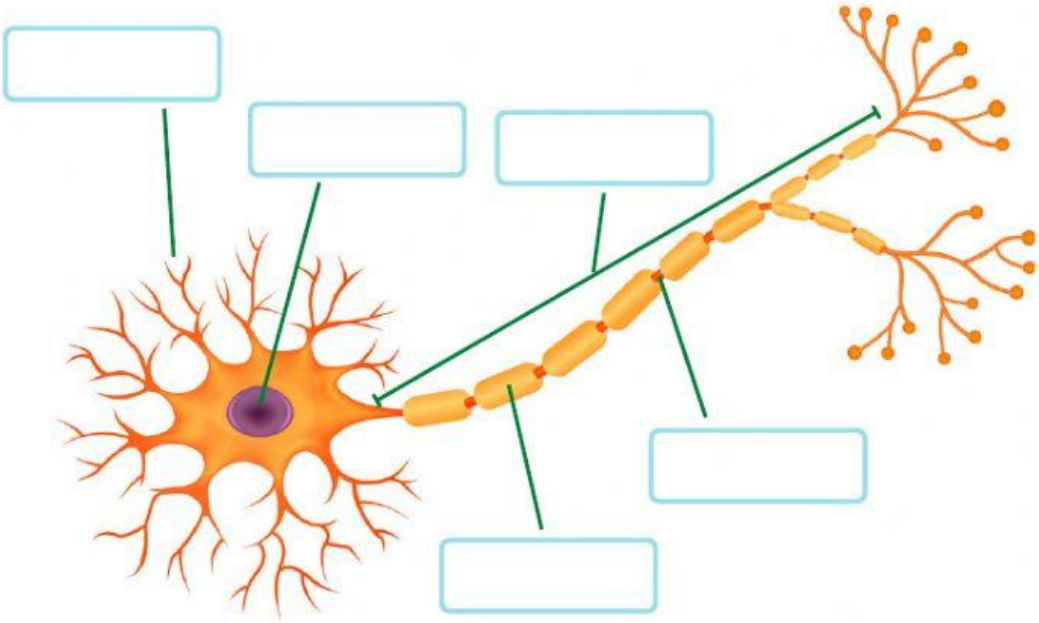

เซลล์ประสาทแบบขั้วเดียว	เซลล์ประสาทแบบ 2 ขั้ว	เซลล์ประสาทแบบหลายขั้ว

เยื่อไมอีลิน แอกซอน

นิวเคลียส โนดออฟรานเวียร์

เดนไดรต์

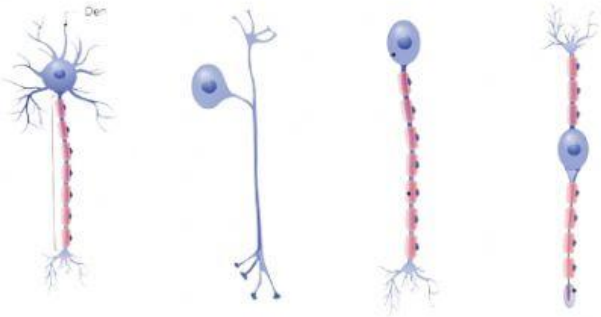

LIVEWORKSHEETS

Action potential

จงนำข้อความที่มีความสัมพันธ์กับหมายเลขเติมลงในตาราง และเลือกช่องที่แสดงการเปิดหรือปิดของช่องโซเดียมและช่องโพแทสเซียมในแต่ละระยะให้ถูกต้อง

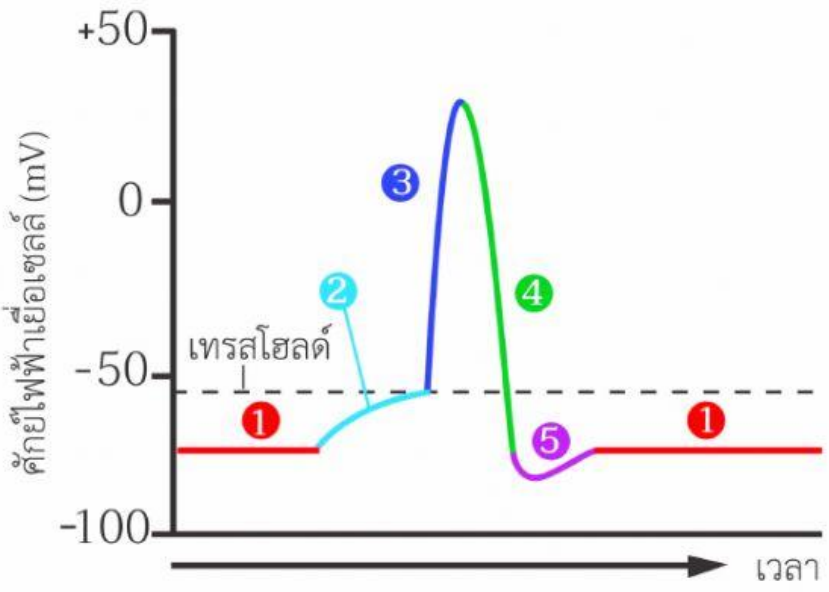

ดีโพลาไรเซชัน (ช่วงแรก)

ดีโพลาไรเซชัน (ช่วงหลัง)

ระยะพัก

ไฮเพอร์โพลาไรเซชัน

รีโพลาไรเซชัน

ระยะ	ช่องไอออนที่มีประตู			
	ช่องโซเดียมที่มีประตู		ช่องโพแทสเซียมที่มีประตู	
	เปิด	ปิด	เปิด	ปิด
1				
2				
3				
4				
5				

LIVEWORKSHEETS