الاسم: 3 – 4 الدوال المثلثية للزوايا

1/ إذا كان ضلع الانتهاء للزاوية θ المرسومة في الضلع القياسي يمر بالنقطة $(8,6)$ فما قيمة $\sin\theta$ ؟

A) $\frac{3}{5}$	B) $\frac{4}{5}$	C) $\frac{3}{4}$	D) $\frac{4}{3}$

2/ إذا كان ضلع الانتهاء للزاوية θ المرسومة في الضلع القياسي يمر بالنقطة $(8,6)$ فما قيمة $\tan\theta$ ؟

A) $\frac{3}{5}$	B) $\frac{4}{5}$	C) $\frac{3}{4}$	D) $\frac{4}{3}$

3/ إذا كان ضلع الانتهاء للزاوية θ المرسومة في الضلع القياسي يمر بالنقطة $(0,2)$ فما قيمة $\sec\theta$ ؟

A) 0	B) 1	C) 2	D) غير معرفة

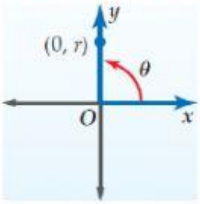
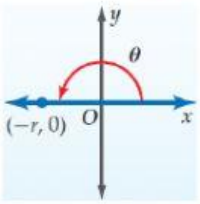
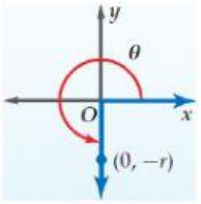
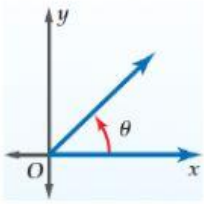
4/ إذا كان ضلع الانتهاء للزاوية θ المرسومة في الضلع القياسي يمر بالنقطة $(-4,-3)$ فما قيمة $\csc\theta$ ؟

A) $-\frac{5}{3}$	B) $-\frac{4}{5}$	C) $-\frac{3}{5}$	D) $-\frac{5}{4}$

5/ الزاوية الربعية هي الزاوية في الوضع القياسي الذي يقع ضلعها النهائي– – –

A) في الربع الأول	B) في الربع الثاني	C) في الربع الثالث	D) على أحد المحورين

6/ الزاوية اللاربعية من الزوايا التالية:

A) 	B) 	C) 	D) 

7/ أي الزوايا تشترك مع $590°$ في ضلع الانتهاء؟

A) $-140°$	B) $50°$	C) $130°$	D) $230°$

8/ الزاوية المرجعية للزاوية في الوضع القياسي التي قياسها $120°$ = – – – –

A) $30°$	B) $45°$	C) $60°$	D) $80°$

9/ الزاوية المرجعية للزاوية في الوضع القياسي التي قياسها $150°$ = – – – –

A) $30°$	B) $45°$	C) $60°$	D) $-210°$

10/ الزاوية المرجعية للزاوية في الوضع القياسي التي قياسها $225°$ = – – – –

A) $30°$	B) $45°$	C) $60°$	D) $80°$

11/ القيمة الدقيقة لِـ $\cos 135°$ = – – – –

A) $-\frac{1}{2}$	B) $-\frac{\sqrt{2}}{2}$	C) $-\frac{\sqrt{3}}{2}$	D) $-\sqrt{3}$

12/ القيمة الدقيقة لِـ $\sin 240°$ = – – – –

A) $-\sqrt{3}$	B) $-\frac{\sqrt{3}}{2}$	C) $-\frac{1}{2}$	D) $\frac{1}{\sqrt{3}}$

13/ القيمة الدقيقة لِـ $\tan 330°$ = – – – –

A) $\frac{1}{32}$	B) $\frac{\sqrt{3}}{2}$	C) $-\frac{1}{2}$	D) $-\frac{\sqrt{3}}{3}$

LIVEWORKSHEETS

14/ القيمة الدقيقة لِـ $\tan\frac{4\pi}{3} =$ ـــــ

A) $\frac{1}{2}$	B) $\frac{\sqrt{2}}{2}$	C) $\frac{\sqrt{3}}{2}$	D) $\sqrt{3}$

15/ القيمة الدقيقة لِـ $\cos\left(-\frac{\pi}{4}\right) =$ ـــــ

A) $\frac{\sqrt{2}}{2}$	B) $-\frac{\sqrt{2}}{2}$	C) $\frac{\sqrt{3}}{2}$	D) $-\frac{\sqrt{3}}{2}$

16/ أي الدوال المثلثية التالية قيمتها 0

A) $\tan\frac{\pi}{2}$	B) $\sin 180°$	C) $\cos\pi$	D) $\cot 0°$

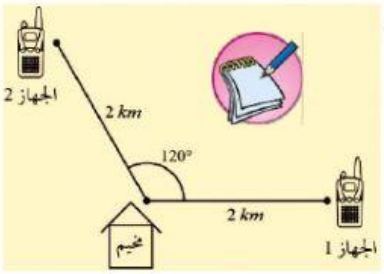
17/ أي الدوال المثلثية التالية قيمتها 1

A) $\tan\frac{\pi}{2}$	B) $\sin 180°$	C) $\cos\pi$	D) $\cot 0°$

18/ أي الدوال المثلثية التالية قيمتها -1

A) $\tan\frac{\pi}{2}$	B) $\sin 180°$	C) $\cos\pi$	D) $\cot 0°$

19/ جهاز إرسال واستقبـــــــــــــال لاسلكيان يبعد كل منهما $2km$ عن مخيم،



وقياس الزاوية المحصورة بين الخطين الواصلين من الجهازين إلى المخيم $120°$؛

إذا كانت النقطة $(0,2)$ تمثل موقع الجهاز الأول بالنسبـــــــــــة للمخيم فإن

النقطة التي تمثل موقع الجهاز الثاني بالنسبة للمخيم هي ـــــ

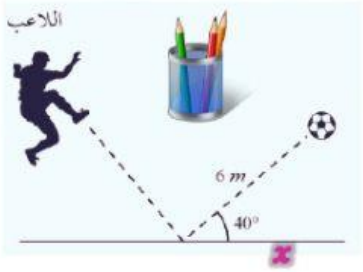
مفتاح الحل: *نوجد الزاوية المرجعية للزاوية $120°$ ثم نوجد دالتي $\sin,\cos$ لها؛*

فيكون البسطان لقيمتي الدالتين هو النقطة التي تمثل موقع الجهاز الثاني بالنسبة للمخيم.

A) $(1,-\sqrt{3})$	B) $(-1,\sqrt{3})$	C) $(3,1)$	D) $(-1,3)$

20/ ركل لاعب كرة قدم الكرة في اتجاه حائط، فارتدت الكرة عنه بزاوية قياسها $40°$.

ما بُعد الكرة عن الحائط عندما قطعت $6m$ في مسار ارتدادها؟



مفتاح الحل: *المطلوب إيجـــــــــاد قيمة x وهو يُمثل مجاور للزاوية $40°$*

ومن الرسم نلاحظ أن $6m$ هو الوتر، والدالة التي تربط بين المجاور والوتر

هي دالة جيب التمام $\cos$. $\cos 40° = \frac{x}{6} \rightarrow x =$ ـــــ

A) $2.8\ m$	B) $3.9\ m$	C) $4.6\ m$	D) $6.2\ m$



{ النجاح }

أسطورة مدفونة في داخلك

فصدق وجودها وقم بالبحث عنها }





تمنياتي لكِ بالتوفيق/

معلمتك المحبة/ د. إيمان التركي

LIVEWORKSHEETS