Evaluación del tercer trimestre

MODELO A

Nombre _____ Fecha _____

1 Escribe el nombre de cada polígono.

- Tiene 8 ángulos ▶ _____
- Tiene 7 lados ▶ _____
- Tiene 5 lados ▶ _____
- Tiene 3 lados ▶
- Tiene 10 vértices ▶ _____
- Tiene 9 lados ▶ _____
- Tiene 8 vértices ▶ _____
- Tiene 6 lados ▶

2 Clasifica los siguientes triángulos según sus lados y sus ángulos.

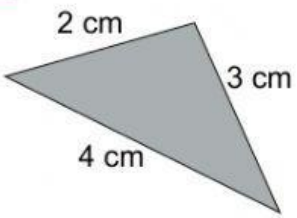

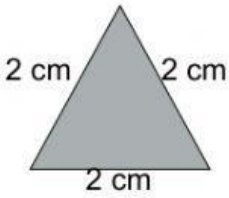

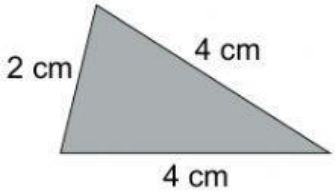

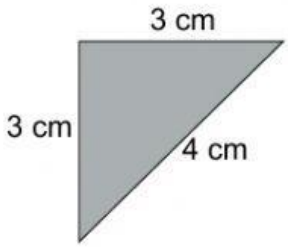

SEGÚN SUS LADOS

SEGÚN SUS ÁNGULOS

PERÍMETRO (suma de todos sus lados)

3 Escribe el nombre de estos polígonos y el número de lados que tiene cada uno.

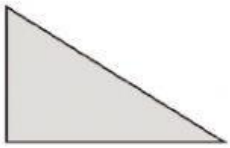
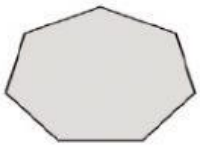
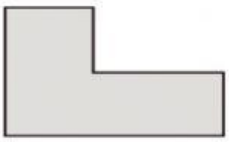
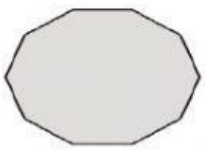

....

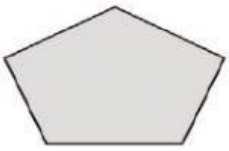

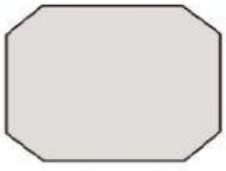
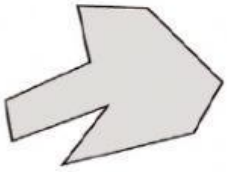

....

4 ¿Cuánto miden los perímetros de los siguientes polígonos?

Calcula y escribe el resultado en cm



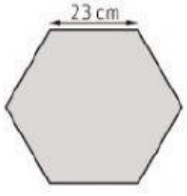

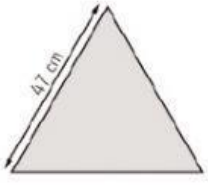

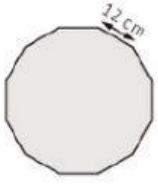

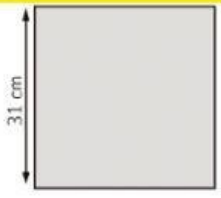

21 × 7 = ...

LIVEWORKSHEETS