ESCRIBE EL NOMBRE DE LOS TRIÁNGULOS CON LOS 2 APELLIDOS
(cuidado podrás necesitar el transportador)

Calcula el perímetro

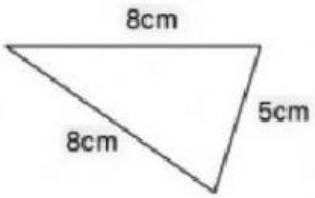

Perímetro = ____

triángulo

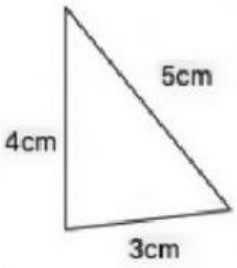

Perímetro = ____

triángulo

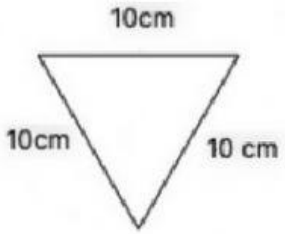

Perímetro = ____

triángulo

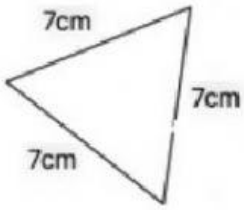

Perímetro = ____

triángulo

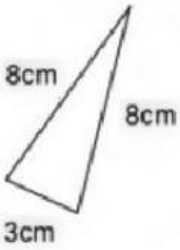

Perímetro = ____

triángulo

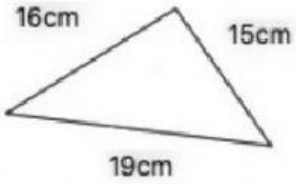

Perímetro = ____

triángulo

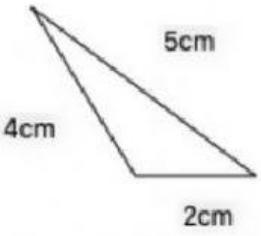

Perímetro = ____

triángulo

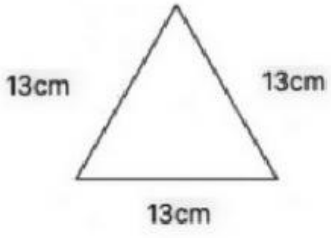

Perímetro = ____

triángulo

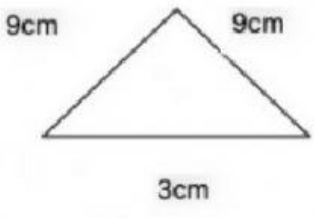

Perímetro = ____

triángulo

LIVEWORKSHEETS