1. **Mit mutatnak a nyilak? Írj róluk műveleteket!**

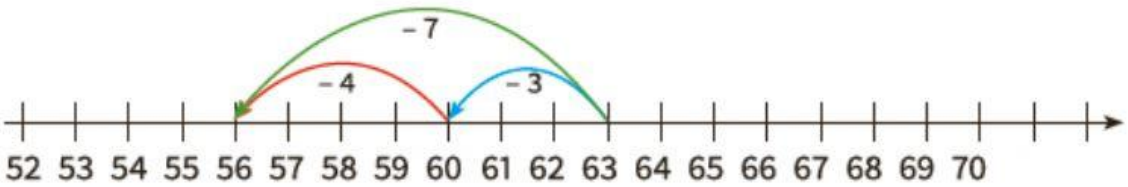

2. **Számítsd ki a műveletek eredményét!**

63 – 3 – 4 = ☐☐ 62 – 2 – 6 = ☐☐ ☐☐ = 67 – 7 – 2 ☐☐ = 65 – 5 – 3

64 – 4 – 3 = ☐☐ 61 – 1 – 7 = ☐☐ ☐☐ = 64 – 4 – 2 ☐☐ = 63 – 3 – 6

62 – 2 – 7 = ☐☐ 68 – 8 – 1 = ☐☐ ☐☐ = 66 – 6 – 2 ☐☐ = 60 – 0 – 5

3. **Végezd el a kivonásokat!**

66 – 10 – 7 = ☐☐ 67 – 10 – 8 = ☐☐ 62 – 46 = ☐☐

68 – 20 – 9 = ☐☐ 64 – 30 – 8 = ☐☐ 64 – 24 = ☐☐

65 – 30 – 9 = ☐☐ 63 – 20 – 9 = ☐☐ 62 – 28 = ☐☐

68 – 40 – 9 = ☐☐ 66 – 20 – 8 = ☐☐ 64 – 47 = ☐☐

4. **Számolj a szirmokon lévő műveleti jelek és számok szerint! A megoldásokat a szirmok melletti négyzetekbe írd!**

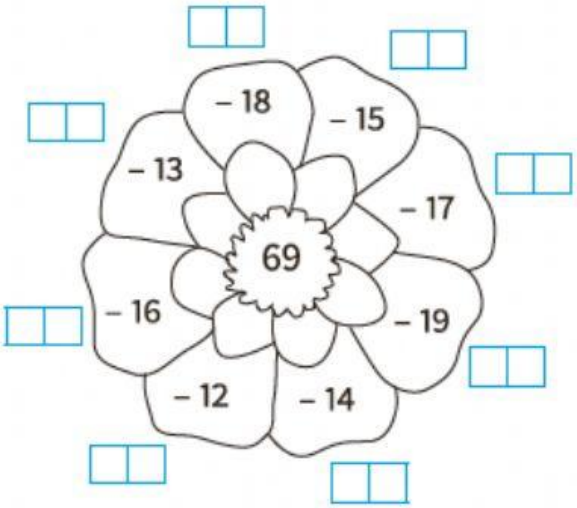

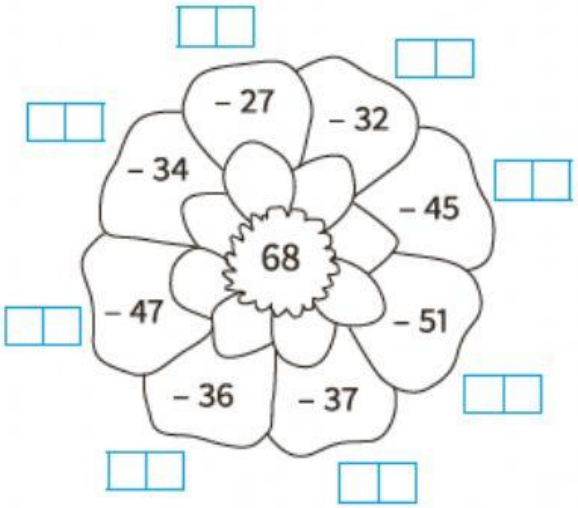

LIVEWORKSHEETS