Bài 1. Điền số thích hợp nhất vào chỗ chấm:

10	15
25	20

10	20
40	30

10	25
.....	40

Bài 2. Đặt các số **49**; **31**; **32**; **17**; **18** mỗi số vào một ô trống để các được phép tính đúng.

□ + □ = □ + □ = □

Bài 3. Bố phơi 3 chiếc khăn cần 4 chiếc kẹp. Hỏi 9 chiếc khăn thì cần ít nhất bao nhiêu chiếc kẹp? Điền số thích hợp vào chỗ chấm.



Bố cần ..... chiếc kẹp.

Bài 4. Sơn có một vài que nhựa có chiều dài 5cm. Hỏi hàng rào dưới đây dài bao nhiêu xăng-ti-mét?

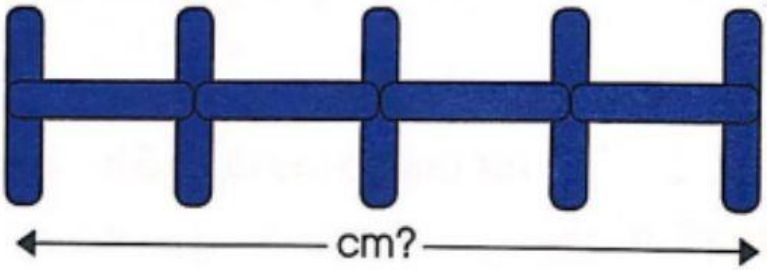

Hàng rào dài ..... cm.

Bài 5. An xếp các que diêm thành các số có hai chữ số và điền dấu so sánh sai như sau:

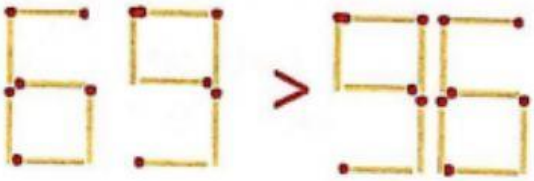

Em hãy đổi chỗ 1 que diêm ở một chữ số trong các số 69 hoặc 96 để có phép so sánh đúng (vẫn giữ nguyên dấu >)

LIVEWORKSHEETS