LKPD

(LEMBAR KERJA PESERTA DIDIK)

NAMA :

KELAS :

NO. ABSEN :

Kelas 3 Kurikulum 2013

Semester 1

Tema 1 Pertumbuhan Dan Perkembangan Makhluk Hidup





Disusun Oleh : Alvina

2A PGSD Angkatan 2021

Universitas Lambung Mangkurat

Tahun 2022

LIVEWORKSHEETS

LEMBAR KERJA PESERTA DIDIK (LKPD)

Kelas/ semester	: 3/1
Jenjang	: SD / MI
Tema	: (1) Pertumbuhan dan Perkembangan Makhluk Hidup
Sub Tema	: (1) Ciri-Ciri Makhluk Hidup
Pembelajaran ke	: 1



Petunjuk :

Bacalah LKPD ini dengan cermat, kemudian kerjakanlah sesuai dengan petunjuk yang diberikan. Isilah pertanyaan yang ada pada LKPD dengan benar. Bertanyalah pada guru jika kurang paham. Minta tolonglah kepada Bapak/Ibu untuk mendampingi belajar.



LIVEWORKSHEETS

SOAL PILIHAN GANDA "MULTIPLE CHOICE"

Pilihlah jawaban yang paling benar dengan cara menekan jawaban yang paling tepat!

1. Daun putri malu akan mengatup jika disentuh. Hal tersebut menunjukkan ciri makhluk hidup, yaitu....

   a. Menanggapi rangsangan
   b. Berkembang biak
   c. bergerak
   d. tumbuh

2. Hewan seperti pada gambar di samping bernafas dengan....

   a. kulit
   b. Paru-paru
   c. Insang
   d. Hidung



3. Hewan seperti pada gambar di samping berkembang biak dengan cara....

   a. Melahirkan
   b. Tunas
   c. bertelur
   d. Bertelur melahirkan



LIVEWORKSHEETS

LEMBAR KERJA PESERTA DIDIK (LKPD)

Kelas / semester	: 3/1
Jenjang	: SD / MI
Tema	: (1) Pertumbuhan dan Perkembangan Makhluk Hidup
Sub Tema	: (2) Pertumbuhan Dan Perkembangan Manusia
Pembelajaran ke	: 1

Petunjuk :

Bacalah LKPD ini dengan cermat, kemudian kerjakanlah sesuai dengan petunjuk yang diberikan. Isilah pertanyaan yang ada pada LKPD dengan benar. Bertanyalah pada guru jika kurang paham. Minta tolonglah kepada Bapak/Ibu untuk mendampingi belajar.



LIVEWORKSHEETS

Perhatikan video berikut ini !

1. Pilihlah gambar di bawah ini makanan yang mengandung karbohidrat.









LIVEWORKSHEETS

LEMBAR KERJA PESERTA DIDIK (LKPD)

Kelas / semester	: 3/1
Jenjang	: SD / MI
Tema	: (1) Pertumbuhan dan Perkembangan Makhluk Hidup
Sub Tema	: (3) Pertumbuhan Hewan
Pembelajaran ke	: 1



Petunjuk :

Bacalah LKPD ini dengan cermat, kemudian kerjakanlah sesuai dengan petunjuk yang diberikan. Isilah pertanyaan yang ada pada LKPD dengan benar. Bertanyalah pada guru jika kurang paham. Minta tolonglah kepada Bapak/Ibu untuk mendampingi belajar.

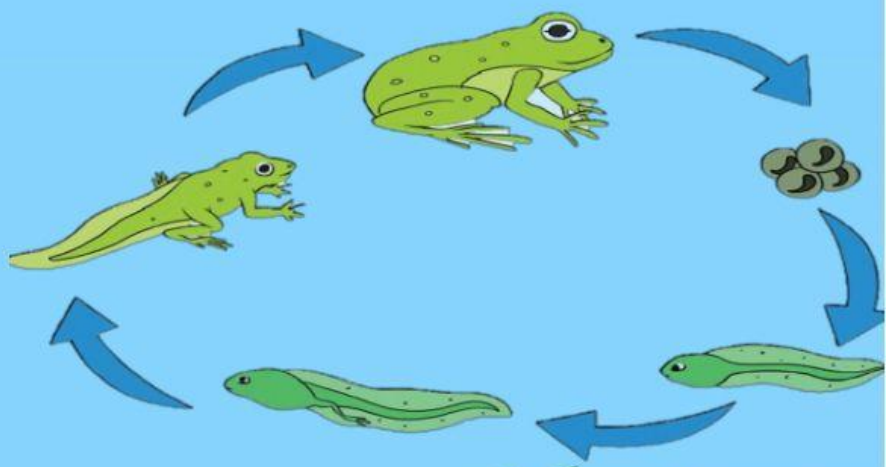



LIVEWORKSHEETS

SELAMAT MENGERJAKAN

1. Perhatikan gambar di bawah ini.

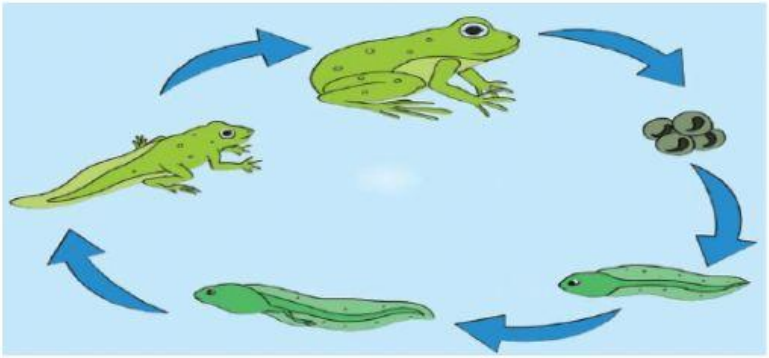

Daur hidup katak setelah dari telur akan menjadi….

a. Katak dewasa
b. Katak berekor
c. Ikan kecil
d. Berudu

2. Katak setelah dewasa akan menjadi hewan yang bisa hidup di darat dan di air, sehingga katak tergolong hewan….

a. Mamalia
b. Amfibi
c. Reptile
d. Vivivar

LIVEWORKSHEETS

LEMBAR KERJA PESERTA DIDIK (LKPD)

Kelas / semester	: 3/1
Jenjang	: SD / MI
Tema	: (1) Pertumbuhan dan Perkembangan Makhluk Hidup
Sub Tema	: (4) Pertumbuhan dan Perkembangan Tumbuhan
Pembelajaran ke	: 1

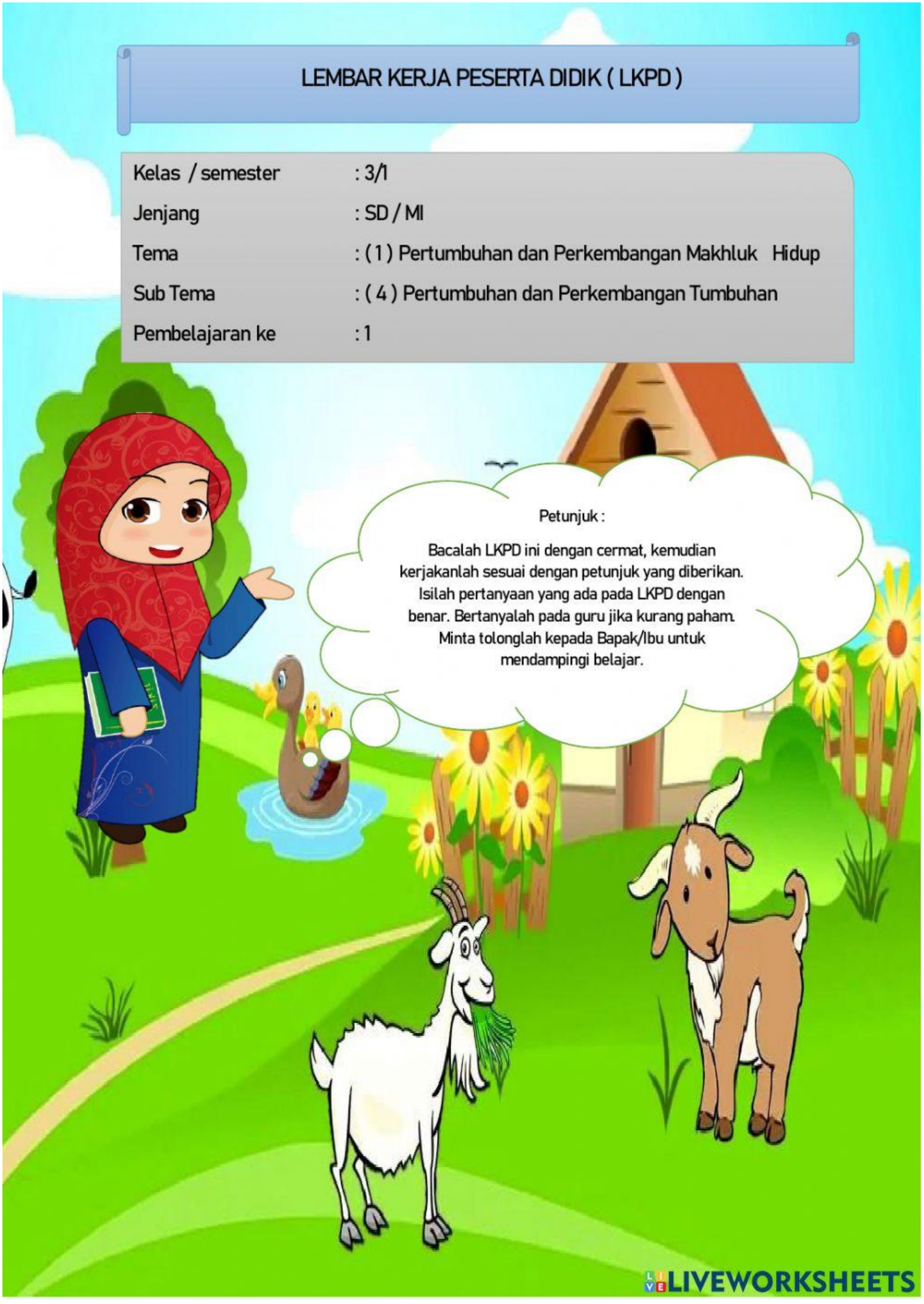

LIVEWORKSHEETS

SELAMAT MENGERJAKAN

Buatlah garis ke jawaban yang benar !

1. Perkembangbiakan tumbuhan ada berbagai macam. Seperti yang sudah kita pelajari, maka hubungkanlah antara gambar tumbuhan dan teks tentang nama perkembangbiakan di bawah ini



Stek batang



Tunas



cangkok

LIVEWORKSHEETS