اسم الطالبة :-

ورقه عمل درس الزوايا المحيطه (٢)

اختاري الاجابه الصحيحه فيما يلي :-

1A) $m\widehat{CF}$

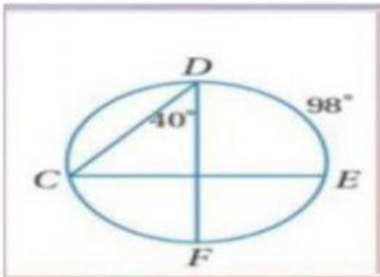

أ-80 ب-49 ج-65 د-93

1B) $m\angle C$

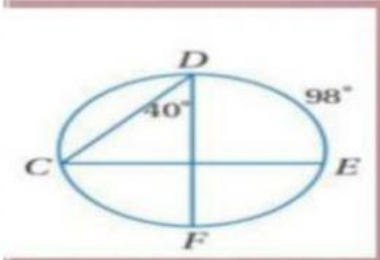

أ-83 ب-59 ج-63 د-49

اضغط مرتين للكتابه أو للتعديل

8) $m\angle R$

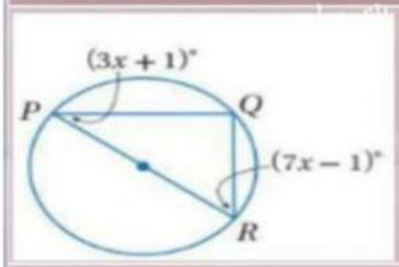

أ-27 ب-28 ج-49 د-80

9) x

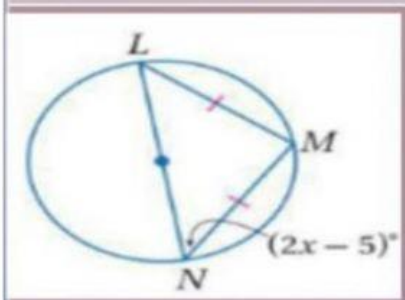

أ-52 ب-25 ج-56 د-32

rawpixel
LIVEWORKSHEETS