Lembar Kerja Peserta Didik

A. Pindahkan Jawaban di sebelah Kiri ke Tempat Jawaban!

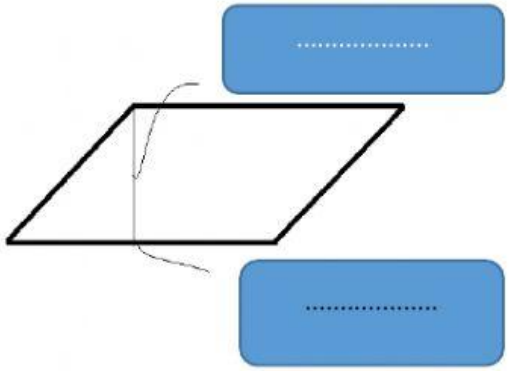

Sisi Atas

Tinggi

B. Lengkapilah!

1. Hitunglah Keliling dan Luas Jajargenjang berikut!

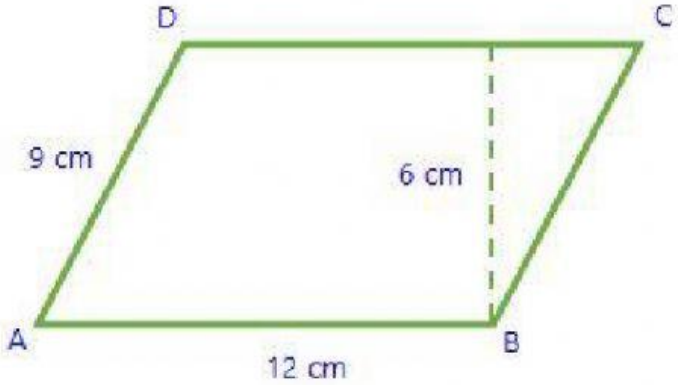

Jawab :

Keliling Jajargenjang ABCD

$K_{jajargenjang}$ = AB + BC + CD + AD

= ..... + ... + ... + ... = ... cm

Jadi, keliling jajargenjang ABCD adalah ..... cm

Luas Jajargenjang ABCD

$L_{jajargenjang}$ = alas x tinggi

= ..... x ..... = ... cm^2

Jadi, Luas jajargenjang ABCD adalah ..... cm^2

LIVEWORKSHEETS

2. Perhatikan gambar Jajargenjang berikut!

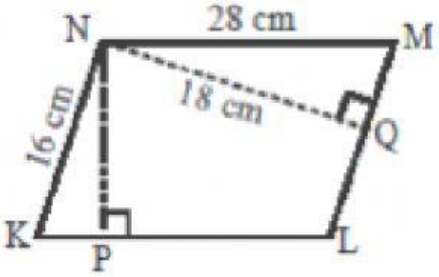

Hitunglah :

a. Kelliling Jajargenjang KLMN!

b. Luas Jajargenjang KLMN!

c. Panjang NP !

Jawab :

a. Keliling Jajargenjang KLMN

$K_{jajargenjang}$ = KL + LM + MN + KN

= ..... + ... + ... + ... = ... cm

Jadi, keliling jajargenjang KLMN adalah ..... cm

b. Luas Jajargenjang KLMN

$L_{jajargenjang}$ = alas x tinggi

= ..... x ..... = ... cm^2

Jadi, Luas jajargenjang KLMN adalah ..... cm^2

c. Panjang NP

Diketahui Luas jajargenjang KLMN = ... cm^2

$L_{jajargenjang}$ = alas x tinggi

..... = KL x NP

..... = ... x NP

NP = ... : .....

NP = ...

Jadi, Panjang NP adalah ..... cm

By:May.smp2bmy

LIVEWORKSHEETS