Latsar Angkatan XXVIII Kab. Boyolali
by. Hafid Arosyid

PENILAIAN HARIAN
TEMA 8 SUBTEMA 3 MATEMATIKA

A. Pilihlah jawaban yang tepat !!

1. Gambar di atas disebut dengan ....

A. diagram
B. tabel
C. bagan
D. balok

2. Jumlah siswa yang berangkat sekolah dengan jalan kaki adalah ....

A. 5 B. 6 C. 8 D. 10

3. Jumlah siswa yang berangkat sekolah dengan naik sepeda adalah ....

A. 5 B. 6 C. 8 D. 10

4. Siswa kelas 3 SD Permata paling banyak berangkat sekolah dengan cara ....

A. naik sepeda
B. jalan kaki
C. naik angkutan
D. diantar orang tua

5. Jumlah Siswa kelas 3 SD Permata yang berangkat sekolah dengan naik sepeda dan naik angkutan adalah .... orang.

A. 8 B. 9 C. 10 D. 11

Bacalah Bacaan berikut ini untuk menjawab soal nomor 6-10 !! ....

Wayan dan teman sedang bermain petualangan. Mereka mendapat tugas dari kakak pembina untuk mencari ranting pohon. Nisa berhasil mengumpulkan 7 ranting pohon. Tigor mendapat 8 ranting pohon. Alex mengumpulkan 10 ranting pohon. Wayan hanya mendapat 6 ranting pohon. Dan Budi dapat mengumpulkan 12 ranting pohon.

6. Yang mendapatkan ranting pohon paling banyak adalah ....

A. Wayan
B. Tigor
C. Alex
D. Budi

LIVEWORKSHEETS

7. Jumlah keseluruhan ranting pohon yang didapatkan Wayan dan teman-teman adalah ....

A. 39 B. 40 C. 41 D. 42

8. Anak yang berhasil mengumpulkan ranting pohon paling sedikit yaitu ....

A. Budi
B. Alex
C. Wayan
D. Nisa

9. Data pada bacaan di atas jika ditulis dengan bentuk turus adalah ....

A.

Nama Anak	Banyaknya Kendaraan
Nisa	卌 |||
Tigor	卌 ||
Alex	卌 ||||
Wayan	卌
Budi	卌 卌

B.

Nama Anak	Banyaknya Kendaraan
Nisa	卌 ||||
Tigor	卌 ||
Alex	卌 ||||
Wayan	卌 |
Budi	卌 卌 ||

C.

Nama Anak	Banyaknya Kendaraan
Nisa	卌 ||
Tigor	卌 |||
Alex	卌 卌
Wayan	卌
Budi	卌 卌 ||

D.

Nama Anak	Banyaknya Kendaraan
Nisa	卌 ||
Tigor	卌 ||
Alex	卌 卌
Wayan	卌 |
Budi	卌 卌 ||

10. Diagram yang benar menurut data pada bacaan di atas adalah ....

A.

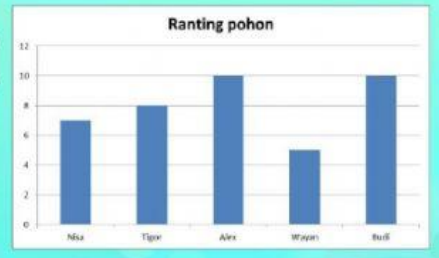

C.

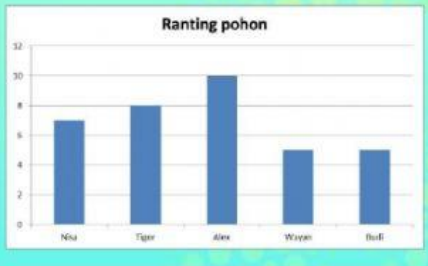

B.

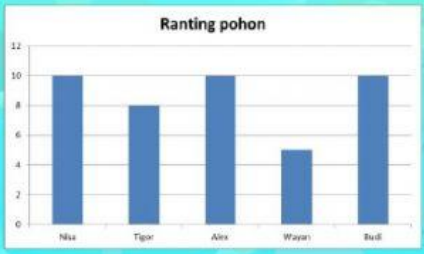

D.

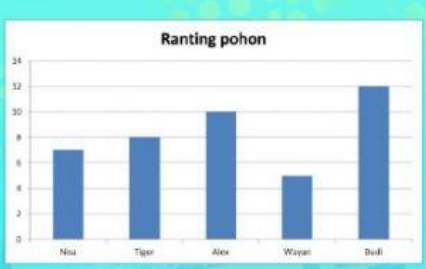

LIVEWORKSHEETS

Latsar Angkatan XXVIII Kab. Boyolali
by. Hafid Arosyid

B. Isilah titik-titik dibawah ini dengan jawaban yang tepat !!

Perhatikan grafik berikut untuk soal nomor 1-5 !!

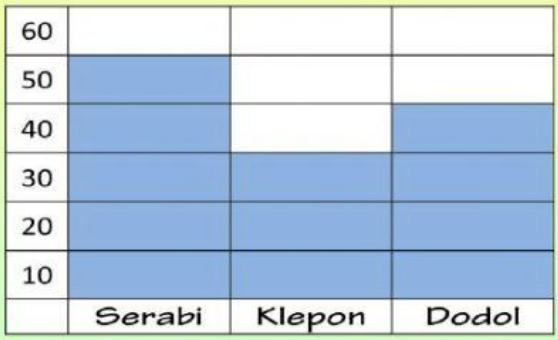

1. Banyaknya orang yang menyukai dodol adalah 1. ....
2. Kue tradisional yang paling banyak disukai adalah 2. ....
3. Jumlah orang yang menyukai klepon adalah 3. ....
4. Kue tradisional yang paling sedikit disukai adalah 4. ....
5. Jumlah orang yang menyukai serabi adalah 5. ....

Perhatikan bentuk turus berikut untuk menjawab soal nomor 6-10 !!

Kendaraan di sekolah Budi

Jenis Kendaraan	Banyaknya Kendaraan
Sepeda	卌 卌 卌 卌
Sepeda Motor	卌 卌
Mobil	卌

6. Banyaknya sepeda yaitu 1. ....
7. Jumlah kendaraan paling banyak adalah 2. ....
8. Jumlah keseluruhan kendaraan yang ada disekolah Budi adalah 3. ....
9. Kendaraan yang paling sedikit digunakan yaitu 4. ....
10. Yang mengendarai sepeda motor di sekolah Budi sebanyak 5. ....

LIVEWORKSHEETS