Multiplicaciones

Resuelve las multiplicaciones escribiendo el número que corresponde.
Apunta las que te llevas para no olvidar sumarlas después.

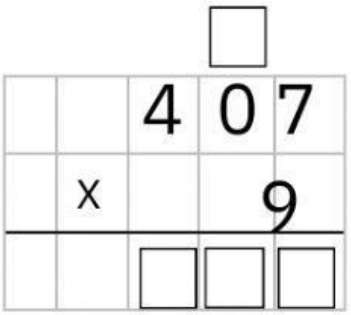

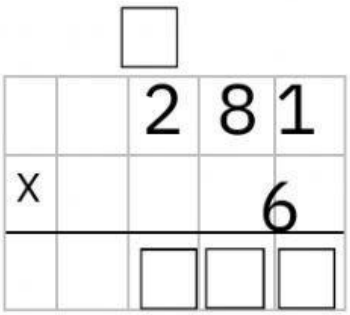

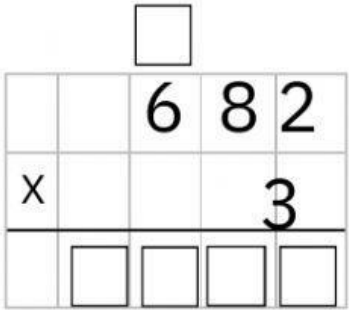

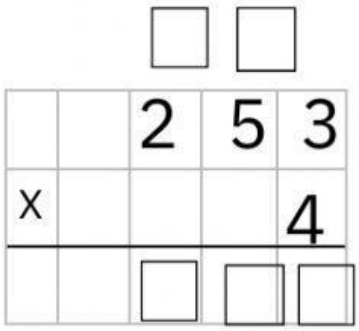

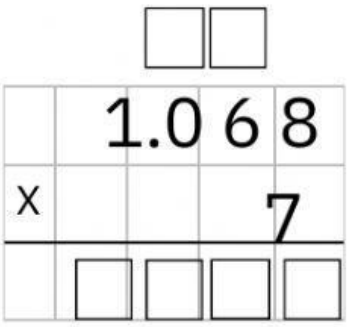

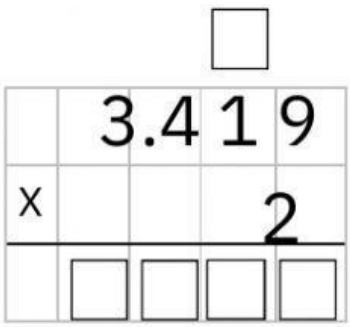

¿Verdadero o falso? Escribe V o F

9 x 9 = 81 ☐

8 x 3 = 24 ☐

6 x 9 = 63 ☐

7 x 7 = 56 ☐

6 x 8 = 46 ☐

5 x 7 = 35 ☐

4 x 7 = 28 ☐

2 x 7 = 9 ☐

3 x 7 = 27 ☐

Si Ainara tiene 8 cajas con 7 colores cada una, tendrá 66 en total. ☐

Si Amir lleva 5 sobres con 9 cromos cada uno, tiene 45 en total. ☐

En clase habrá 25 alumnos si hay 5 equipos de 5 niños. ☐

LIVEWORKSHEETS