TRƯỜNG MẦM NON BÁT TRÀNG

Họ tên Học sinh: Ngày:

Tên lớp: lứa tuổi:

con hãy đếm và tích vào số lượng tương ứng ở mỗi nhóm đồ vật nhé



2 1 3

1 2 3

3 2 1



2 1 3

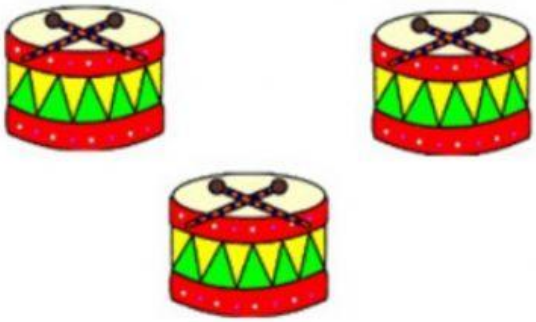

3 1 2



1 2 3

LIVEWORKSHEETS