QUIZIZZ

Sudut Kelas 4
15 Pertanyaan

NAMA :
KELAS :
TANGGAL :

1. Sudut terbentuk oleh dua ruas garis yang saling ....

A Sejajar
B Lurus
C Berpotongan
D Melengkung

2. Sudut dibagi menjadi tiga yaitu sudut ....

A Tumpul, lancip dan siku-siku
B Siku-siku, lancip dan kotak
C Tumpul, lingkaran dan lancip
D Siku-siku, tumpul dan lurus

3. Sudut yang besarnya kurang dari 90° dinamakan sudut ....

A Lurus
B Tumpul
C Siku-siku
D Lancip

4. Gambar di bawah ini yang merupakan sudut tumpul adalah ....

A 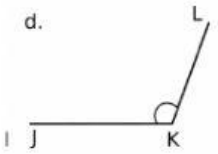

B 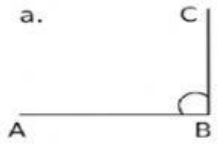

C 

D 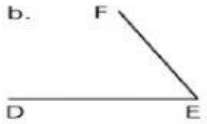

5. Besar sudut siku-siku adalah . . . .

A 30^0
B 120^0
C 90^0
D 45^0

LIVEWORKSHEETS

6. Alat yang digunakan untuk mengukur besar sudut adalah ... .

A busur derajat

B bujur derajat

C penggaris segitiga

D penggaris bulat

7. Gambar di bawah ini yang merupakan sudut lancip adalah ....

A 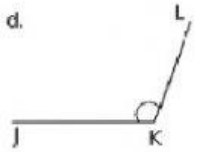

B 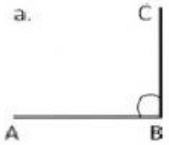

C 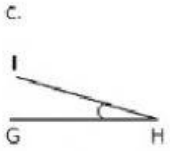

D 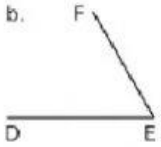

8. Sudut siku-siku adalah . . . .

A Sudut yang besarnya lebih dari 90°

B Sudut yang sangat besar

C Sudut yang besarnya kurang dari 90°

D Sudut yang besarnya 90°

9. 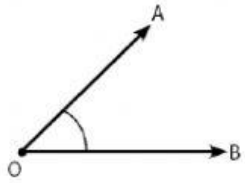

Jenis sudut gambar tersebut adalah . . . .

A Siku-siku

B Tumpul

C Lurus

D Lancip

10. 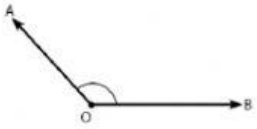

Gambar tersebut jenis sudutnya adalah . . . .

A Tumpul

B Lurus

C Lancip

D Siku-siku

11. Sudut yang besarnya kurang dari 90° dinamakan sudut ....

A Tumpul

B Siku-siku

C Lurus

D Lancip

LIVEWORKSHEETS

12. 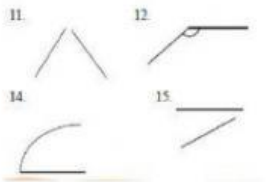

Perhatikan gambar berikut! Gambar yang menunjukkan sudut adalah ....

A 14

B 11

C 12

D 15

13. 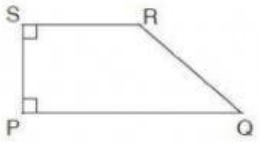

Perhatikan gambar berikut! Lancip tumpulnya ada ...

A S

B R

C P

D Q

14. 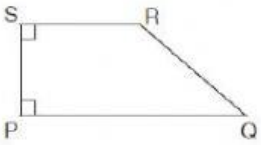

Perhatikan gambar berikut!
Sudut tumpulnya ada ...

A P

B Q

C S

D R

15. 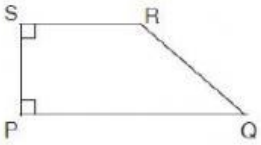

Perhatikan gambar berikut!
Sudut Siku-siku ada ...

A 1

B 3

C 4

D 2

LIVEWORKSHEETS