Điểm

ĐỀ KIỂM TRA CHẤT LƯỢNG CUỐI HỌC KÌ 2

Môn: **TOÁN 2 – ĐỀ 2** Thời gian làm bài: 35 phút

Họ và tên: ……..Lớp: ……..…

Phần I: Trắc nghiệm (4 điểm) *Khoanh vào chữ cái đặt trước câu trả lời đúng*

Câu 1(0.5đ): Số gồm 5 trăm, 4 chục, 3 đơn vị được viết là: (M1)

A. 345 B. 543 C. 534 D. 453

Câu 2(0.5đ): Thừa số trong phép nhân 5 × 3 = 15 là: (M1)

A. 5 B. 3 C. 15 D. 5 và 3

Câu 3(0.5đ): Số lớn nhất trong các số 605; 125; 202; 520 là: (M1)

A. 605 B. 125 C. 202 D. 520

Câu 4(0.5đ): Kết quả của phép tính 2 × 9 là: (M1)

A. 18 B. 17 C. 29 D. 19

Câu 5(0.5đ): Xem lịch và cho biết, nếu thứ ba tuần này của tháng 5 là ngày 15 thì thứ ba tuần sau của tháng 5 sẽ là ngày: (M2)

Tháng 5						
Thứ hai	*Thứ ba*	*Thứ tư*	*Thứ năm*	*Thứ sáu*	*Thứ bảy*	*Chủ nhật*
	1	2	3	4	5	6
7	8	9	10	11	12	13
14	15	16	17	18	19	20
?	?	23	24	25	26	27
28	?	?				

A. 1 B. 8 C. 21 D. 22

Câu 6(0.5đ): Bạn Minh đi đá bóng lúc 16 giờ 10 phút và về nhà lúc 16 giờ 45 phút. Vậy thời gian bạn Minh đi đá bóng là: (M3)

A. 30 phút

B. 35 phút

C. 45 phút

D. 55 phút

Câu 7(0.5đ): 1km …… 300m + 600m. Dấu thích hợp điền vào chỗ chấm là: (M2)

A. > B. = C. < D. Không điền được dấu

LIVEWORKSHEETS

Câu 8.(0.5đ) (M3) Một hình vuông bị cắt ra dọc theo các đường kẻ. Hỏi hình nào dưới đây không thể có được bằng cách cắt trên?

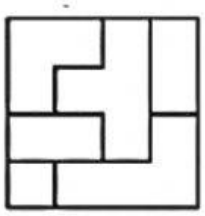

A. B. C. D.

Phần II: TỰ LUẬN (6 điểm)

ài 1: Đặt tính rồi tính (1 điểm) (M1)

a. 80 + 132 b. 225 + 156 c. 191 - 77 d. 738 - 291

Bài 2: Tính (1 điểm) (M1)

5 × 6 = ... 14m : 2 = ...

Bài 3: (1 điểm): Quan sát biểu đồ tranh và trả lời các câu hỏi: (M1)

MÔN THỂ THAO YÊU THÍCH CỦA CÁC BẠN HỌC SINH LỚP 2A

a) Môn thể thao được nhiều bạn yêu thích nhất là .....

b) Môn bơi lội được ..... bạn yêu thích.

c) Môn bóng rổ có số lượng bạn yêu thích nhiều hơn môn đá cầu là .....bạn.

LIVEWORKSHEETS

Bài 4: (2 điểm) (M2) Để chuẩn bị cho buổi tiệc ngày 8/3, nhà hàng Nam Sơn cắm các bình hoa hồng và bình hoa tulip trang trí. Biết số bình hoa tulip là 240 bình và số bình hoa hồng nhiều hơn số bình hoa tulip là 180 bình. Hỏi nhà hàng đã cắm bao nhiêu bình hoa hồng?

Bài giải

Bài 5: (1 điểm) (M3) a. Điền số thích hợp vào chỗ trống:



b. Quan sát tranh và trả lời câu hỏi:

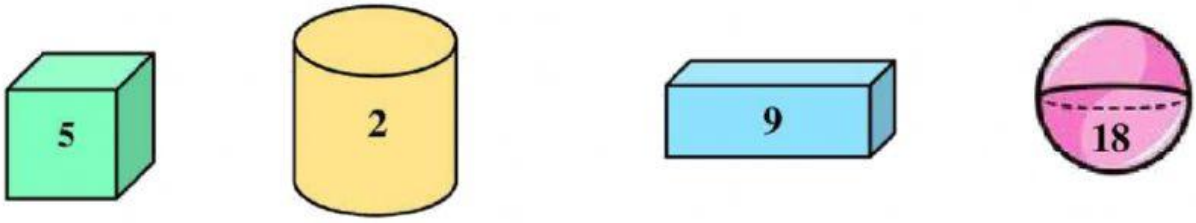

Tích của 2 số ghi trên khối lập phương và khối hộp chữ nhật là:……

Thương của số ghi trên khối cầu và số ghi trên khối trụ là:……

LIVEWORKSHEETS