الاسم :	الصف :	الشعبة :

حجم الأجسام المركبة

أوجد حجم المجسم التالي مقرباً الناتج لأقرب جزء من عشرة : $\pi \approx 3.14$

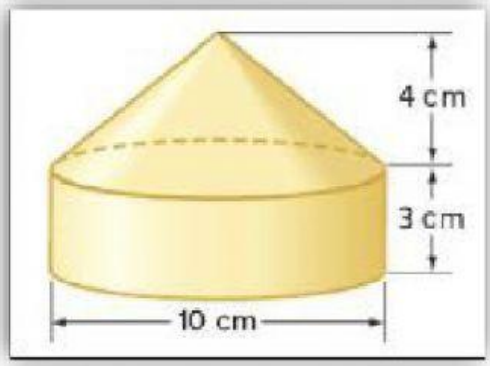

$V =$

$V =$

$V = \pi \, . \, r^2 . \, h$

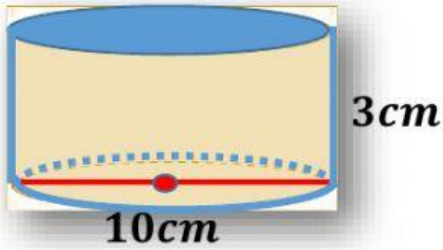

$V_1 \approx \quad \times \quad \times$

$V_1 \approx \quad cm^3$

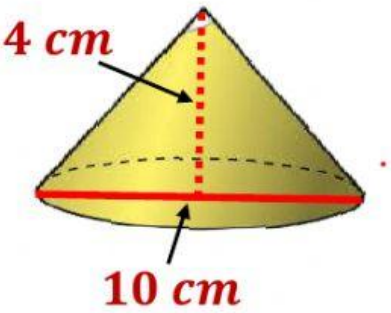

$$V = \frac{1}{3} \pi \, . \, r^2 . \, h$$

$V_2 \approx \text{——} \times \quad \times \quad \times$

$V_2 \approx \quad cm^3$

LIVEWORKSHEETS