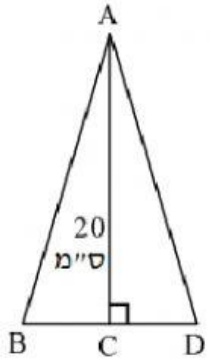

ΔABC הוא משולש שווה-שוקיים.

שטחו 120 סמ"ר.

אורך הגובה לבסיס הוא 20 ס"מ.

(א) חשבו את אורך הקטע BC .

(ב) חשבו את אורך BD .

(ג) חשבו את אורך השוק AB .

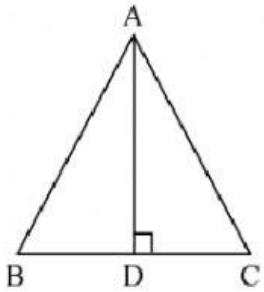

ΔABC הוא משולש שווה-שוקיים.

היקפו הוא 50 ס"מ.

אורך השוק AB הוא 17 ס"מ.

(א) חשבו את אורך הבסיס BC .

(ב) חשבו את אורך BD .

(ג) חשבו את אורך AD .

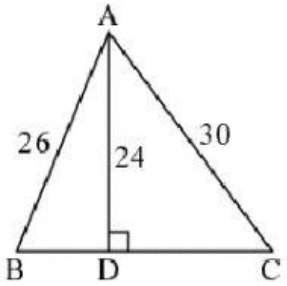

בסרטוט שלפניכם ΔABC .

המידות בסרטוט נתונות בס"מ.

(א) חשבו את אורך CD .

(ב) חשבו את אורך BC .

(ג) חשבו את שטח ΔABD .

LIVEWORKSHEETS

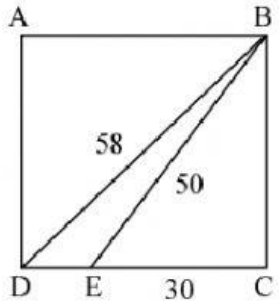

בסרטוט שלפניכם מלבן $ABCD$.

כל המידות בסרטוט נתונות בס"מ.

(א) חשבו את אורך הצלע BC .

(ב) חשבו את אורך הצלע AB .

(ג) חשבו את אורך קטע DE .

(ד) חשבו את שטח ΔBDE .

(ה) חשבו את היקף ΔBCD .

LIVEWORKSHEETS