Disajikan sebuah gambar organ-organ dari organisme/makhluk hidup sebagai hasil pengamatan makroskopis. Dari hasil pengamatan tersebut peserta didik mengidentifikasi dan melabel atau memberi nama pada gambar yang telah disediakan serta menyebutkan fungsi dari organ tersebut. Kerjakan tugas yang diberikan dan laporkan hasil penugasan serta presentasikan di depan kelas.

Tabel Kegiatan 3

No	Gambar Organ	Nama Jaringan	Fungsi
1		Nama jaringan: Terdapat pada:	
2	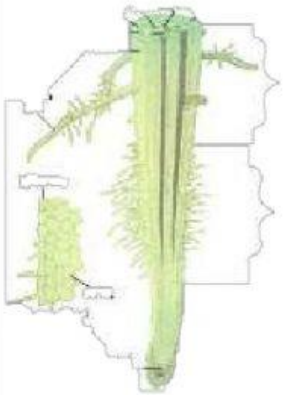	Nama jaringan: Terdapat pada:	

LIVEWORKSHEETS

3		Nama jaringan: Terdapat pada:	
4	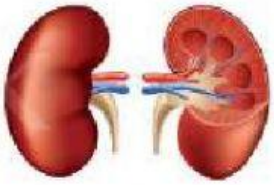	Nama jaringan: Terdapat pada:	
5		Nama jaringan: Terdapat pada:	
6		Nama jaringan: Terdapat pada:	

LIVEWORKSHEETS

7	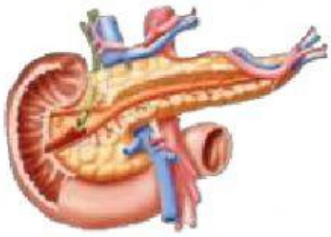	Nama jaringan: Terdapat pada:	
8	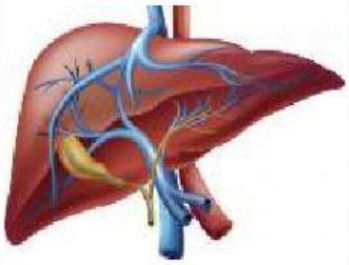	Nama jaringan: Terdapat pada:	
9		Nama jaringan: Terdapat pada:	
10	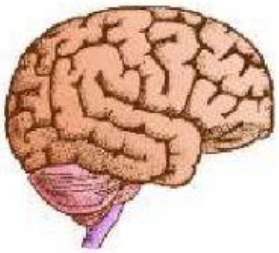	Nama jaringan: Terdapat pada:	

LIVEWORKSHEETS