Thái An Edu – Vinabacus Phù Ninh

Chương trình Bàn tính số học trí tuệ Vinabacus

PBT TOÁN HIGHER A _BUỔI 16

1. Khi thay đổi ngược màu hình bên dưới sẽ được hình nào dưới đây?

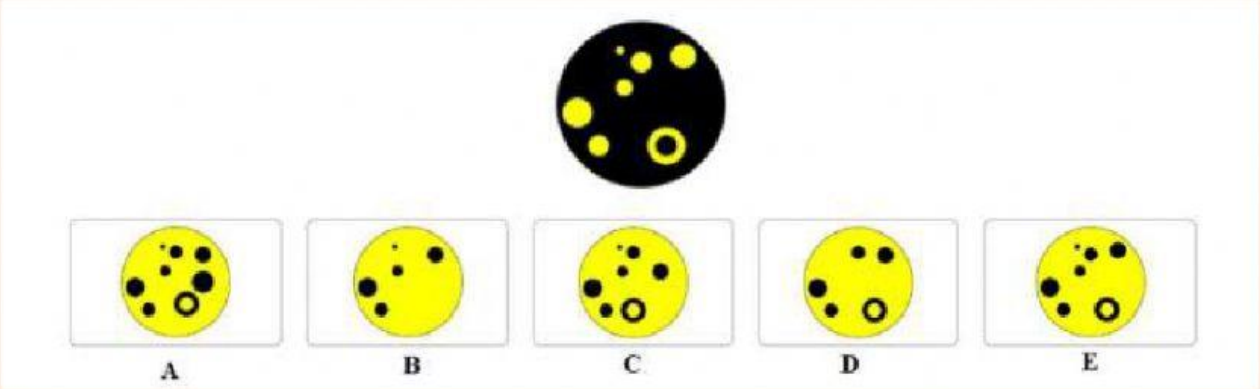

2. Chiếc bánh pizza được chia thành các phần bằng nhau. Hỏi có bao nhiêu phần đã bị lấy đi ?

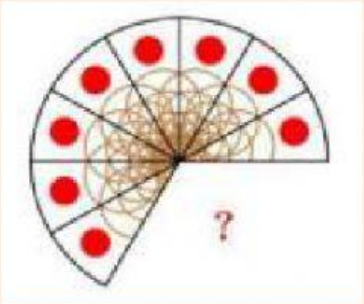

A.3 B. 4 C. 5 D. 6 E. 7

3. Theo quy luật hình thì điểm tiếp theo đi qua là điểm nào ?

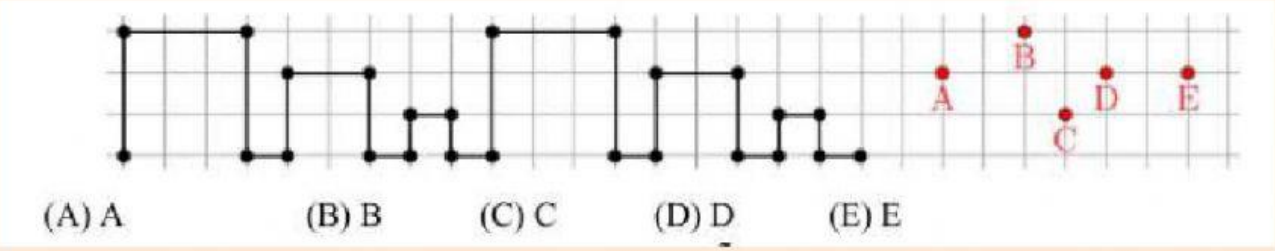

LIVEWORKSHEETS