POLÍGONS

1. Escriu el nombre de vèrtex, angles i costats dels següents polígons.

Vèrtex

Angles

Costats



Vèrtex

Angles

Costats



Vèrtex

Angles

Costats



Vèrtex

Angles

Costats

2. Escull el nom dels següents quadrilàters

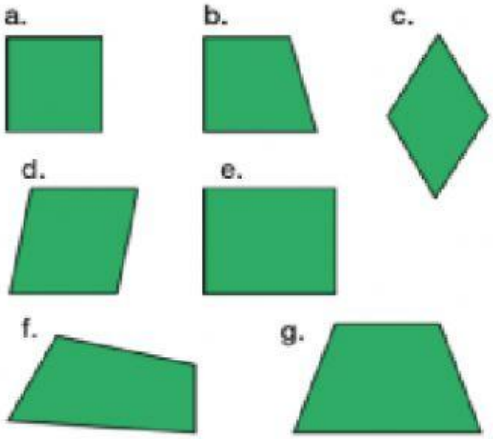

A	
B	
C	
D	
E	
F	
G	

3. **Escull el nom dels següents triangles.**

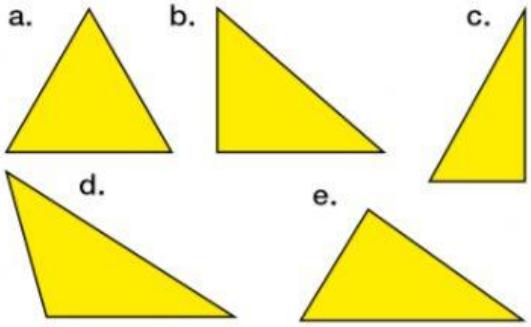

A	
B	
C	
D	
E	

4. Relaciona.

trapezi ❍	❍ costats paral·lels de dos en dos
trapezoide ❍	❍ dos costats paral·lels
paral·lelogram ❍	❍ cap costat paral·lel

5. Compta els quadrats que formen cada figura i escriu-ne l'àrea.

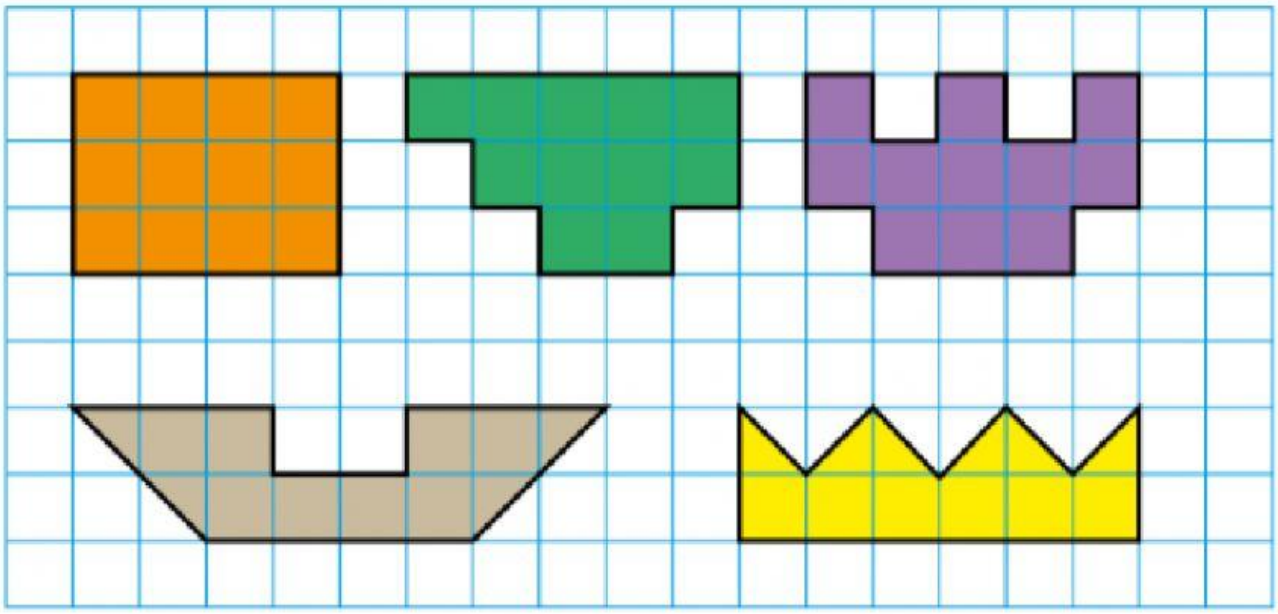

6. Escriu el perímetre de cada figura.

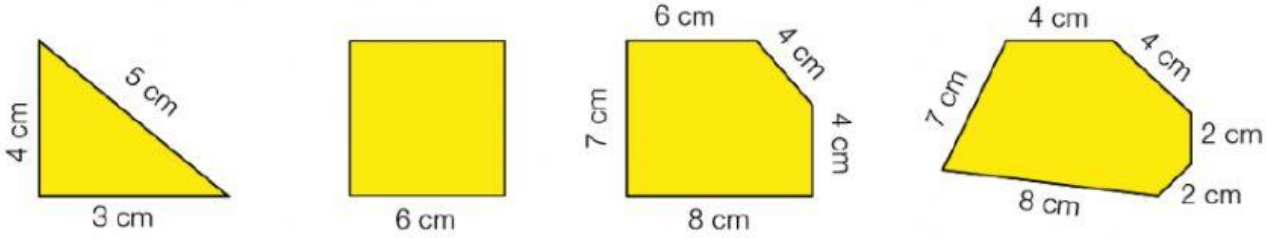

7. **En Felip vol posar una tanca de seguretat al voltant de la piscina. Les dimensions de la piscina rectangular són 8 m de llargada i 3 m d'amplada. Quants metres de tanca necessita?**

8. **El perímetre d'una pista rectangular de patinatge és de 40 m. Si mesura de llargada 15 m, quant mesura d'amplada?**

9. **Relaciona.**

HEPTÀGON

PENTÀGON

OCTÀGON

TRIANGLE

ENEÀGON

DECÀGON

QUADRILÀTER

HEXÀGON