KINGDOM OF BAHRAIN
Ministry of Education
Al-Busaiteen Intermediate Girls School

مملكة البحرين
وزارة التربية والتعليم
مدرسة البسيتين الإعدادية للبنات

نشاط 1 على المستقيمات المتوازية والاجزاء المتناسبة

اختاري الاجابة الصحيحة

في الشكل المجاور :

في Δ أ ب جـ ، $\overline{\text{د هـ}}$ // $\overline{\text{ب جـ}}$

إذا كان أ د = ٨ سم ، د ب = ٤ سم ، أ هـ = ١٠ سم ،

فإن طول $\overline{\text{هـ جـ}}$ يساوي :

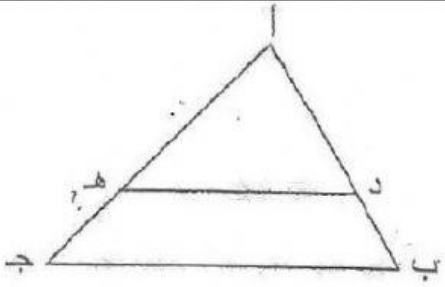

(أ) ١٠ سم (ب) ٥ سم (جـ) ٤ سم (د) ٦ سم

في الشكل المجاور، ما قيمة س؟

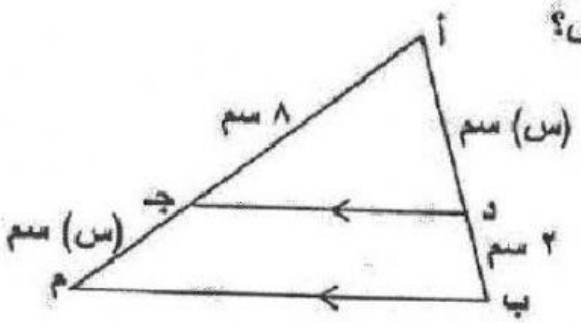

(أ) ٦
(ب) ٥
(جـ) ٤
(د) ٣

في الشكل المجاور :

إذا كانت $\overline{\text{س ص}}$ قطعة منصفة في المثلث أ ب جـ

فإن طول $\overline{\text{س ص}}$ يساوي :

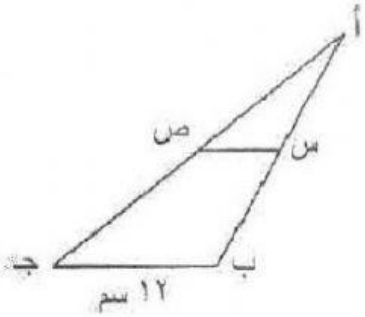

(أ) ١٢ سم (ب) ٦ سم (جـ) ٢٤ سم (د) ٣ سم

LIVEWORKSHEETS