1

0	1	2			5	
7			10			13
	15			18		

2

>, <, =

11 ☐ 14	13+4 ☐ 13	18−11 ☐ 18−6
12 ☐ 6	17−2 ☐ 17	13+4 ☐ 4+13
0 ☐ 15	16+3 ☐ 0	14−2 ☐ 17−2

3

15		11		14		10		16		
▲⁘	▲⁚		▲⁞⁞		▲⁚		▲⁞⁞		▲▲	▲⁞⁞

4

а) 13 − 12 = 1

▲⁘ − ▲⁚ = ☐

б) 16 − 3 = ☐

в) 14 + 2 = ☐

г) 15 − 11 = ☐

5

12 + 7 = ☐	17 − 5 = ☐	15 + 4 = ☐
16 − 4 = ☐	11 + 0 = ☐	19 − 13 = ☐
13 − 10 = ☐	14 − 4 = ☐	10 + 8 = ☐

6

а) Спочатку з кошика взяли 12 яблук, а потім 3. Скільки яблук узяли з кошика?

б) На стоянці 16 автомобілів, з яких 5 вантажівок, а решта – легковики. Скільки легковиків на стоянці?

в) Ганнуся з'їла 4 цукерки, після чого у неї залишилось 3 шоколадних цукерки і 10 ірисок. Скільки цукерок було у дівчинки спочатку?

г) Купили 7 кг малини і 3 кг агрусу. Для варення взяли 8 кг. Скільки кілограмів ягід залишилося?

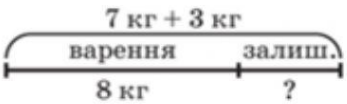



7

Скільки фігур „заховалося"?

а)

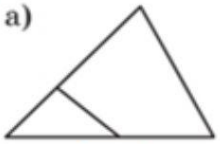

☐

б)

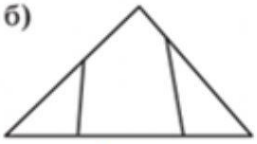

☐

в)

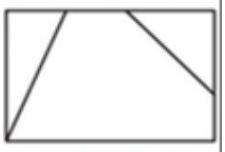

☐

8

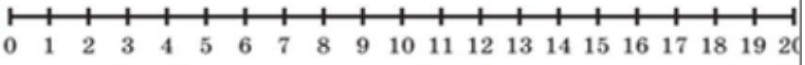

8 + 6 = ☐ 14 − 4 = ☐ 20 − 3 = ☐

9

Рік тому Василькові було 6 років. Скільки років йому буде через 2 роки?

16 26 36

173 273 373

LIVEWORKSHEETS