Thái An Edu – Vinabacus Phù Ninh

Chương trình Bàn tính số học trí tuệ Vinabacus

PBT TOÁN HIGHER A _BUỔI 9

1.Đống gạch lớn nhiều hơn đống gạch nhỏ bao nhiêu viên gạch?

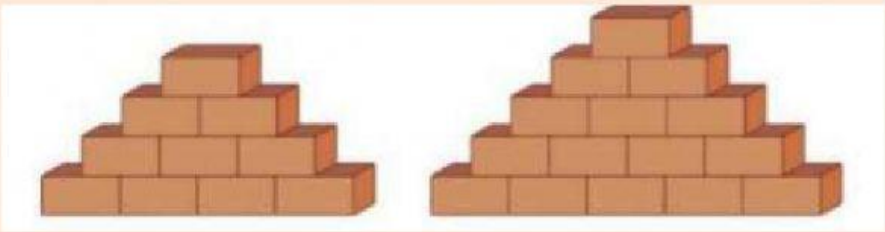

Đáp án:

2. Cần bao nhiêu viên gạch để lấp đầy khoảng trống bên trong?



Đáp án:

3. Mèo và chuột cùng chạy về phía bên phải. Nếu chuột nhảy được 1 ô thì mèo nhảy được 2 ô. Hỏi mèo đuổi được chuột ở ô số mấy?

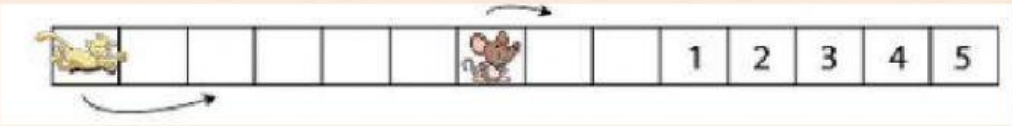

A.1 B. 2 C. 3 D. 4 E. 5

LIVEWORKSHEETS