ПЕРЕВІРЯЄМО СВОЇ ДОСЯГНЕННЯ

1 Відшукай помпон, який «відірвався» від шарфа.

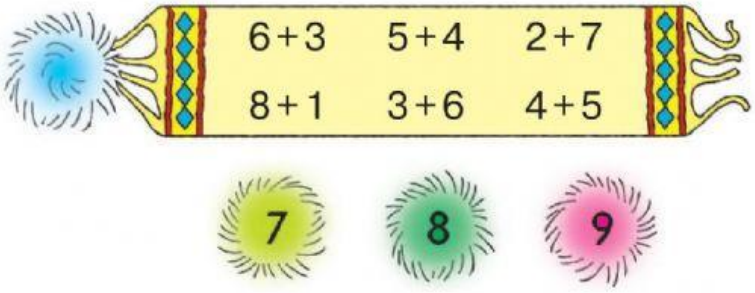

2 Доповни числа в кожному ряді до 10.

10	
8	
7	

10	
7	
6	

10	
4	
5	

3 Визнач масу кавуна; гарбуза.

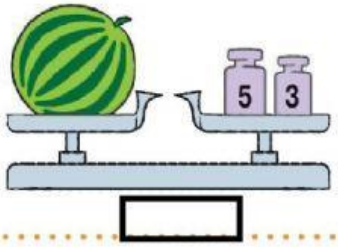

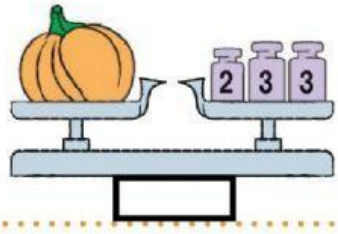

4 Визнач, скільки сантиметрів довжина стрічки за блакитним чотирикутником. Порівняй.

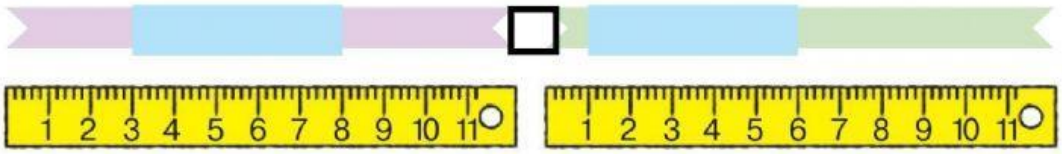

LIVEWORKSHEETS