Я пізнаю світ

Дата _____

3 клас	Прізвище _____ Ім'я _____	Варіант 2

Діагностична робота

Фізика, хімія

Після перевірки постав знак «+» у сонечку, якщо ти правильно виконав/виконала завдання.

Познач правильну відповідь.

1. **Найпростіше джерело електричного струму, у якому розподіл зарядів відбувається завдяки використанню різних металів і спеціальної рідини.**

А Електрометр;
Б джерело електричного струму;
В гальванічний елемент.

2. **В електричному колі, що складається із джерела електричного струму, лампи й вимикача (з'єднаних провідниками), протікатиме струм, якщо...**

А вимикач розміщено в правильному місці;
Б використати другий вимикач;
В вимикач замикає електричне коло.

3. **Згідно із законом збереження енергії: енергія може...**

А з'являтися під час виконання роботи;
Б переходити від одного тіла до іншого;
В накопичуватися в акумуляторах.

4. **Пристрій, що перетворює енергію вітру на електричну.**

А Гідротурбіна;
Б вітрогенератор;
В сонячна батарея.

LIVEWORKSHEETS

Установи відповідність.

1	Перетворює світлову енергію (енергію Сонця) на електричну	**А**	Теплова електростанція
2	Перетворює теплову енергію, що видобувають під час спалювання корисних копалин (вугілля), на електричну	**Б**	Сонячна електростанція

Познач модель молекули азоту.

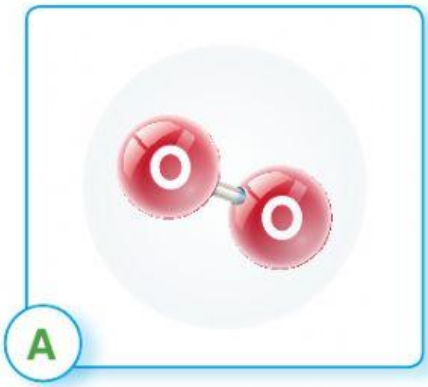

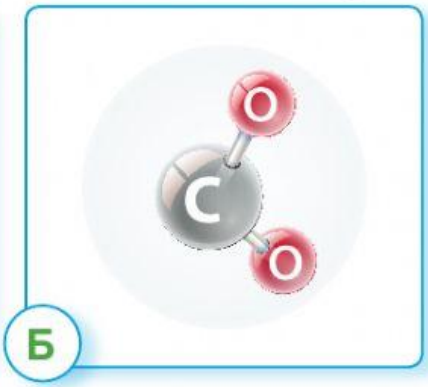

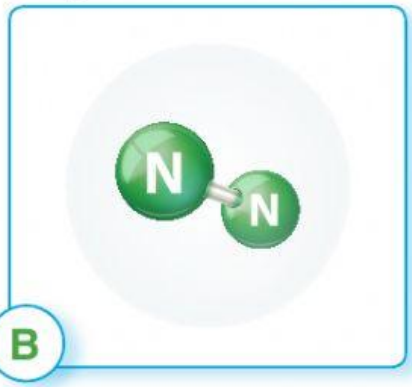

Устав пропущене в будиночку хімічних елементів.

Опиши, що слід робити задля зменшення витрат гарячої води.

1. _____

_____

_____

2. _____

_____

_____

LIVEWORKSHEETS