Методична підтримка до підр. «Математика» О.Гісь, І. Філяк
(автори І. Оріщенко, О.Кравченко, Т.Коваль)

Діагностувальна робота 6

Величини. Сюжетні задачі. Дії з числами

Прізвище ім'я

1 Уважно розглянь календар. Пронумеруй місяці. Обери правильну відповідь. Дай відповіді на запитання.

Січень

ПН	ВТ	СР	ЧТ	ПТ	СБ	НД
				1	2	3
4	5	6	7	8	9	10
11	12	13	14	15	16	17
18	19	20	21	22	23	24
25	26	27	28	29	30	31

Лютий

ПН	ВТ	СР	ЧТ	ПТ	СБ	НД
1	2	3	4	5	6	7
8	9	10	11	12	13	14
15	16	17	18	19	20	21
22	23	24	25	26	27	28

Березень

ПН	ВТ	СР	ЧТ	ПТ	СБ	НД
1	2	3	4	5	6	7
8	9	10	11	12	13	14
15	16	17	18	19	20	21
22	23	24	25	26	27	28
29	30	31				

Квітень

ПН	ВТ	СР	ЧТ	ПТ	СБ	НД
			1	2	3	4
5	6	7	8	9	10	11
12	13	14	15	16	17	18
19	20	21	22	23	24	25
26	27	28	29	30		

Травень

ПН	ВТ	СР	ЧТ	ПТ	СБ	НД
					1	2
3	4	5	6	7	8	9
10	11	12	13	14	15	16
17	18	19	20	21	22	23
24	25	26	27	28	29	30
31						

Червень

ПН	ВТ	СР	ЧТ	ПТ	СБ	НД
	1	2	3	4	5	6
7	8	9	10	11	12	13
14	15	16	17	18	19	20
21	22	23	24	25	26	27
28	29	30				

Липень

ПН	ВТ	СР	ЧТ	ПТ	СБ	НД
			1	2	3	4
5	6	7	8	9	10	11
12	13	14	15	16	17	18
19	20	21	22	23	24	25
26	27	28	29	30	31	

Серпень

ПН	ВТ	СР	ЧТ	ПТ	СБ	НД
						1
2	3	4	5	6	7	8
9	10	11	12	13	14	15
16	17	18	19	20	21	22
23	24	25	26	27	28	29
30	31					

Вересень

ПН	ВТ	СР	ЧТ	ПТ	СБ	НД
		1	2	3	4	5
6	7	8	9	10	11	12
13	14	15	16	17	18	19
20	21	22	23	24	25	26
27	28	29	30			

Жовтень

ПН	ВТ	СР	ЧТ	ПТ	СБ	НД
				1	2	3
4	5	6	7	8	9	10
11	12	13	14	15	16	17
18	19	20	21	22	23	24
25	26	27	28	29	30	31

Листопад

ПН	ВТ	СР	ЧТ	ПТ	СБ	НД
1	2	3	4	5	6	7
8	9	10	11	12	13	14
15	16	17	18	19	20	21
22	23	24	25	26	27	28
29	30					

Грудень

ПН	ВТ	СР	ЧТ	ПТ	СБ	НД
		1	2	3	4	5
6	7	8	9	10	11	12
13	14	15	16	17	18	19
20	21	22	23	24	25	26
27	28	29	30	31		

1. Скільки днів у 4 тижнях?
   28 60 51

2. Скільки днів у звичайному році?
   360 366 365

3. Скільки місяців в одному році?
   А) 11 Б) 14 В) 12

Левко приїхав у Львів 11 січня, а їхати додому планує 16 березня. Скільки днів пробуде Левко у Львові?

Козачки запланували зустрітися з Левком 19 лютого, який це день тижня?

У Левка зупинився годинник 28 лютого, а майстерня Майстра Часу працює з понеділка. Левко домовився прийти у четвер. Яке це буде число?

2 Порівняй

980 р. ◯ 2 ст.

299 р. ◯ 3 ст.

100 дес. ◯ 1000 р.

1 ст. ◯ 970 р.

Creative bees
LIVEWORKSHEETS

3 Допоможи Левкові обрати правильну відповідь. З`єднай з відповідною плашкою.

6 міс.	18 год 15 хв + 2 год 45 хв =	17 міс.
14 хв 35 с	2 роки – 6 міс. =	21 год
6 год	8 хв 5 с + 6 хв 30 с =	14 хв 30 с
1 рік 6 міс.	1 доба - 18 год =	12 хв 60 с

4 Виконай обчислення у стовпчик.

56 хв 40 с – 29 хв 19 с

29 р. 2 міс. + 18 р. 9 міс.

8 год 24 хв – 5 год 07хв

5 Майстер Часу пропонує прочитати написаний словами час. Намалюй стрілки на механічних годинниках та напиши цифри на електронних годинниках.

Хвилинна стрілка

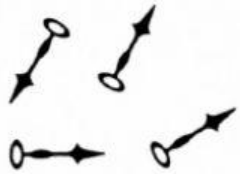

Годинна стрілка

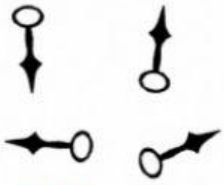

15 хв на третю

25 хв до шостої

5 хв по дев'ятій

10 хв за північ

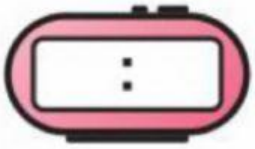

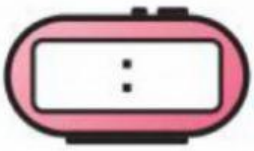

6 Обчисли.

367 – (475 – 198) =

1) 2)

645 + 257 – 446 =

1) 2)

(302 – 294) · 7 =

1)

Creative bees

LIVEWORKSHEETS

7 Розв'яжи задачу.

Львів – шахова столиця. Тут проходить щороку турнір із шахів. Цього року він триватиме три дні. Левко хоче туди потрапити. Допоможи Левкові заповнити таблицю, щоб він міг спланувати свій режим дня.

Турніри:	Початок	Тривалість	Закінчення
І дня	о 9 год 30 хвилин	7 годин	
ІІ дня		6 год 30 хв	о 15 год 45 хв
ІІІ дня	10 год		О 14 год 20 хв

8 У Львові щороку походить командний шаховий турнір. Минулого року в ньому брали участь 54 гравці з 9 команд. Цього року в кожній команді на два учасника більше, ніж минулого року. Скільки команд грає цього року, якщо в турнірі бере участь 56 гравців?

	У одній команді	Кількість команд	Загальна кількість
Минул. року			
Цього року			

Перевір свою роботу. Виправ охайно помилки.

Після перевірки постав «+» у клітинці ☐

Як я оцінюю свою роботу?

Мені було легко виконувати завдання (вкажи номери завдань)	
Я мав проблему із завданням	
Найскладнішим було завдання	

Creative bees

LIVEWORKSHEETS