Nombres et opérations

1. **Ecris** le nombre.

- Le nombre composé de 2 D et 4 u est …… .
- Le nombre 58 est composé de …… D et …… u.
- Le nombre 14 est composé de …… D et …… u.
- Le nombre composé de 8 D et 3 u est …… .
- Le nombre 29 est composé de …… D et …… u.

2. **Compte** les points par quatre.

   Ecris le nombre total de points.

Il y a …… points.

3. **Compte** par 3 le nombre de moutons



Il y a _____ moutons.

4. **Ecris** les nombres manquants dans les cases.

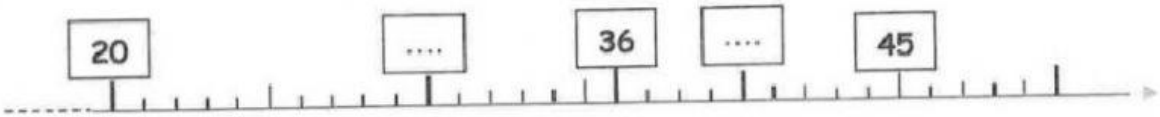

5. **Complète** par < , > , =.

30 40

81 18

36 71

6. **Ecris** des nombres en utilisant seulement ces chiffres :

2 - 5 - 8

- Avec deux de ces chiffres, écris un nombre qui a 8 dizaines : .....
- Avec les chiffres 8 et 5, écris le plus petit nombre possible : .....
- Avec deux de ces chiffres, écris le plus grand nombre possible : .....

7. **Relie** chaque nombre à ses différentes écritures.

0 dizaine et 7 unités	59	sept
8 dizaines et 0 unité	7	quarante-six
5 dizaines et 9 unités	70	cinquante-neuf
4 dizaines et 6 unités	46	quatre-vingts
	80	
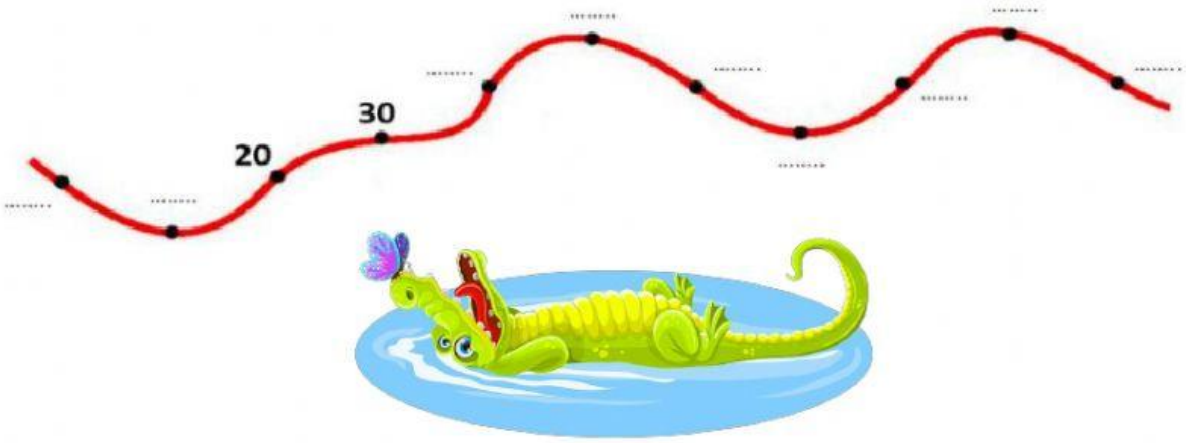
8. **Ecris** les nombres sur les pointillés.