PICTOGRAMAS

1. SI CADA FIGURA TIENE EL VALOR DE 2, ENTONCES

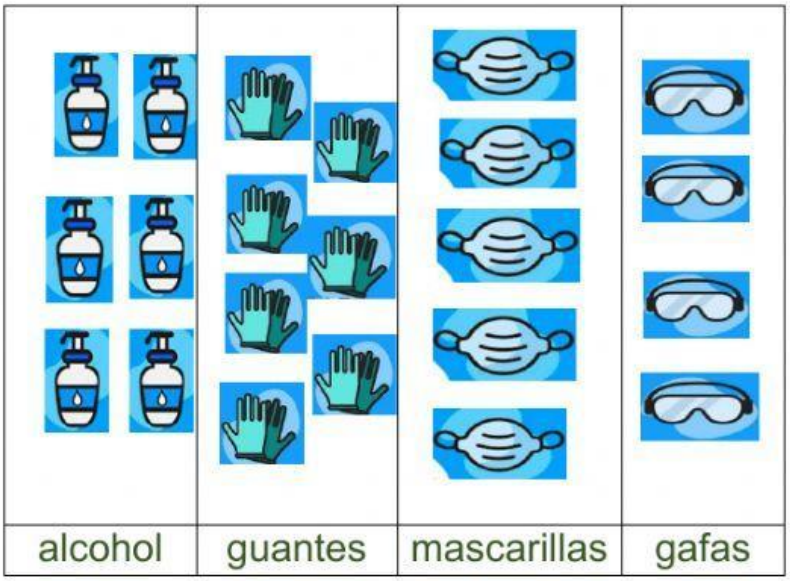

HAY GAFAS

HAY MASCARILLAS

HAY ALCOHOL

HAY GUANTES

HAY ENTRE GAFAS Y GUANTES

HAY ALCOHOL Y MASCARILLAS

HAY GUANTES MÁS QUE ALCOHOL

HAY GAFAS MENOS QUE ALCOHOL

2. SI = 10

UNE SEGÚN CORRESPONDA

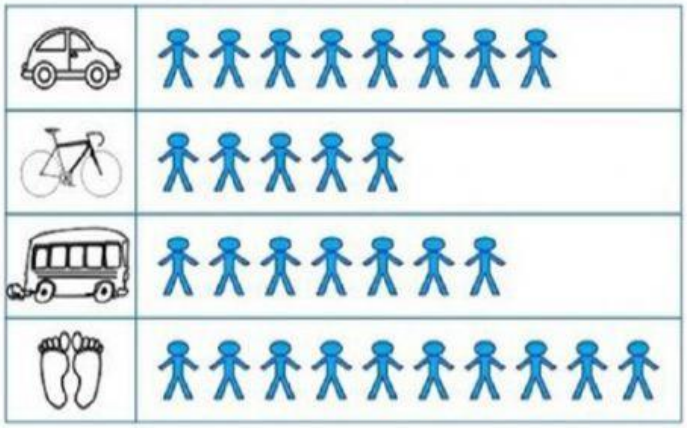

100

50

80

70



¿CUANTAS SE TRASLADAN EN BUS Y EN AUTO?

¿CUANTAS MÁS SE TRASLADAN A PIE QUE EN BUS?

¿CUÁNTAS MENOS SE TRASLADAN EN BICICLETA QUE EN AUTO?

LIVEWORKSHEETS