KINGDOM OF BAHRAIN
Ministry of Education
Al Busaiteen Intermediate Girls School

مملكة البحرين
وزارة التربية والتعليم
مدرسة البسيتين الإعدادية للبنات

تدريب علي متوازي الاضلاع

اختاري رمز الإجابة الصحيحة مما يأتي

أ ب جـ د شكل رباعي ، فيه الضلعان $\overline{أب}$ ، $\overline{دجـ}$ متوازيان .

أي مما يأتي يكفي لإثبات أن الشكل أ ب جـ د متوازي أضلاع :

(أ) $\overline{أب} \cong \overline{أجـ}$ (ب) $\overline{أجـ} \cong \overline{بد}$ (جـ) $\overline{أد} \cong \overline{بجـ}$ (د) $\overline{أب} \cong \overline{دجـ}$

اي من العبارات الاتية غير كافية لإثبات أن الشكل الرباعي متوازي أضلاع :

(أ) كل ضلعين متقابلين متوازيان (ب) يوجد ضلعان متقابلان متوازيان ومتطابقان.

(جـ) القطران ينصف كل منهما الآخر (د) توجد زاويتان متقابلتان متطابقتان.

الشكل الذي يمثل متوازي أضلاع فيما يلي هو :

(أ)
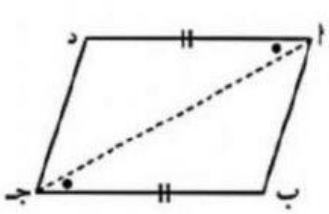

(ب)
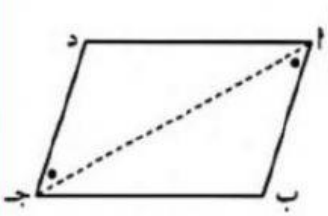

(جـ)
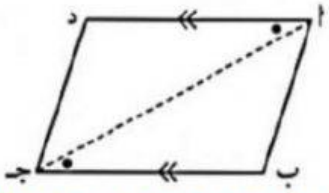

(د)
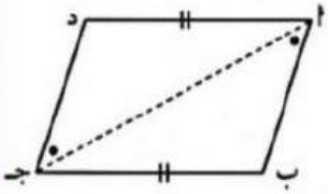

LIVEWORKSHEETS