الأعشار والأجزاء من مئة

اسم الطالب:	الصف : /

عبِّر عن الجزء المظلل في كل من الأشكال الآتية بكسر اعتيادي وكسر عشري:

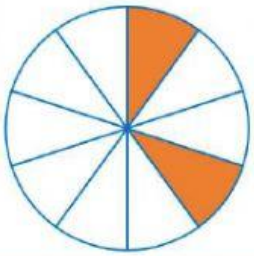

الكسر الاعتيادي = $\frac{\square}{\square}$

الكسر العشري = ☐



الكسر الاعتيادي = $\frac{\square}{\square}$

الكسر العشري = ☐



الكسر الاعتيادي = $\frac{\square}{\square}$

الكسر العشري = ☐



الكسر الاعتيادي = $\frac{\square}{\square}$

الكسر العشري = ☐



الكسر الاعتيادي = $\frac{\square}{\square}$

الكسر العشري = ☐

اكتب كلا مما يأتي على صورة كسر عشري:

ثمانية أعشار: ☐

خمسة عشر جزءا من مئة: ☐

ستة أجزاء من مئة: ☐

سبعون جزءا من مئة: ☐

أربعة من مئة: ☐

إعداد مدرس المادة :
أ. غـديـر البـري

LIVEWORKSHEETS