Урок 2

1 Розглянь ланцюжок перетворень і поясни, як вони виконані.

$400 \cdot 70 = (4 \cdot 100) \cdot (7 \cdot 10) = (4 \cdot 7) \cdot (100 \cdot 10) = 28 \cdot 1000 = 28000.$

Пригадай правило множення круглих чисел.

Виконай обчислення, усно роблячи перетворення:

320 • 200 = _____

7000 • 30 = _____

12• 300 = _____

9000 • 30 = _____

LIVEWORKSHEETS

2 Розмісти відповіді прикладів у порядку зменшення і ти прочитаєш ім'я короля казкової держави, який звільнив дітей від нудних занять у школі та посадив за парти дорослих.

$$\begin{array}{r} 5400 \\ \times\ 62 \\ \hline \end{array}$$ Ш

$$\begin{array}{r} 9730 \\ \times\ 290 \\ \hline \end{array}$$ Т

$$\begin{array}{r} 4060 \\ \times\ 3800 \\ \hline \end{array}$$ А

$$\begin{array}{r} 730 \\ \times\ 870 \\ \hline \end{array}$$ У

$$\begin{array}{r} 409 \\ \times\ 4500 \\ \hline \end{array}$$ І

$$\begin{array}{r} 805300 \\ \times\ 590 \\ \hline \end{array}$$ М



LIVEWORKSHEETS

3 В Олі було 10 грн. Вона купила 5 зошитів, за ціною 1 грн, і 2 ручки, по 2 грн за кожну. Скільки грошей у неї залишилося? Чи зможе вона купити за них шоколадку за 2 грн?

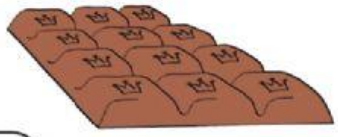

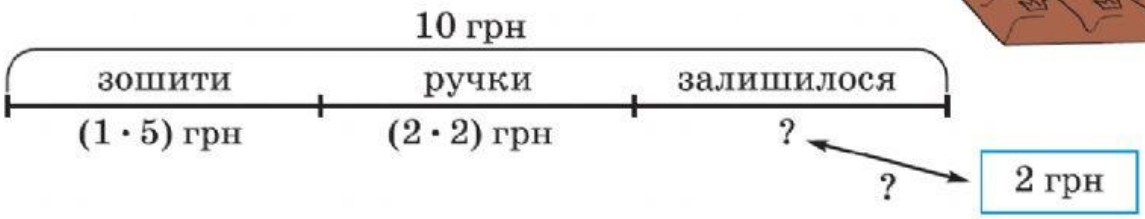

Задача

1) 1• 5 = ☐ (грн.) – коштують зошити.
2) 2•2 = ☐ (грн.) – коштують ручки.
3) ☐ + ☐ = ☐ (грн.) – коштують зошити і ручки.
4) 10 - ☐ = ☐ (грн.) – решта (залишиться).
5) ☐ ? 2 грн.

Відповідь: отже, Оля ☐ купити шоколадку.

LIVEWORKSHEETS

4 9 тістечок коштують 18 грн. Скільки гривень потрібно заплатити за 7 таких тістечок?

	C	a	n
I	18 грн		9
II			7

$a_1 = a_2$

5 Місяць тому 2 морозива коштували 2 грн. Тепер їх ціна збільшилась на 20 к. Скільки тепер потрібно заплатити за 5 таких морозив?

	C	a	n
I	200 к.		2
II			5

$a_2 = a_1 + 20$



6 Мама спочатку купила 3 кг яблук за ціною 4 грн, а потім ще 2 кг таких самих яблук. Скільки всього грошей вона заплатила?

	C	a	n
Спочатку	}	4 грн	3
Потім			2

$a_1 = a_2$

LIVEWORKSHEETS

7 Склади програму дій, допиши числа-результати обчислень у ході розв'язку рівнянь.

$(k : 16) \cdot 13 + 11 = 50$

$(k : 16) \cdot 13 =$

$k : 16 =$

$k =$

$14 - 72 : (d - 3) = 8$

$72 : (d - 3) =$

$d - 3 =$

$d =$

8 Знайди корені рівняння й зроби перевірку.

а) $7 + x = 7$

$x =$

б) $7 - y = 0$

$y =$

в) $n - 0 = 7$

$n =$

г) $t - 7 = 0$

$t =$

д) $a - a = 7$

е) $b - b = 0$

LIVEWORKSHEETS

Розсели чоловічків на островах.

LIVEWORKSHEETS