1. Egészítsd ki a mondatokat, hogy igazzá váljanak a paralelogrammára!

A paralelogramma szemközti oldalai ..... és ..... .

A paralelogramma ..... négyszög, ... az átlók metszéspontja.

A paralelogramma átlói .....

A paralelogramma szemközti szögei ..... .

A paralelogramma szomszédos szögeinek összege .....°.

2. Jelöld a paralelogrammákat!

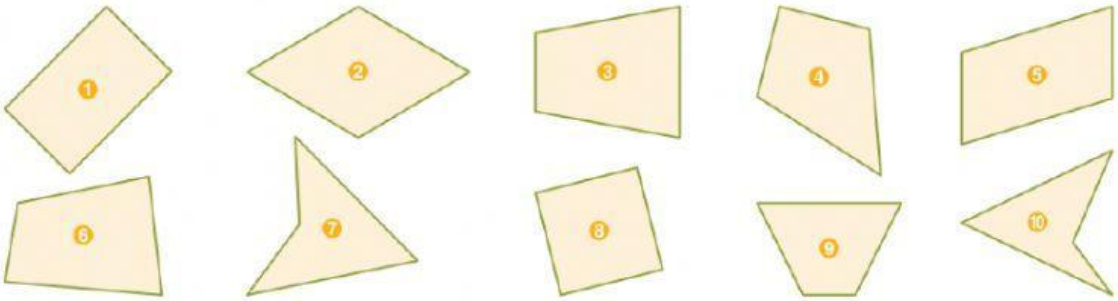

3. Hány területegység a paralelogrammák területe?

a)



..... ☐

b)

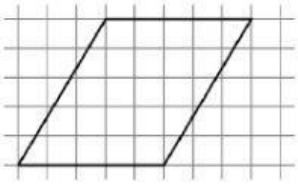

..... ☐

c)

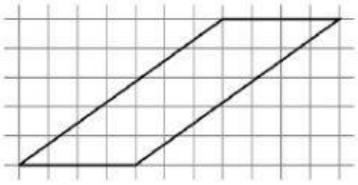

..... ☐

4. Add meg a paralelogramma hiányzó adatait! A megoldásod cm-ben illetve cm^2-ben add meg! Csak mérőszámot írj!(Számolj a füzetben!)

	a)	b)	c)	d)	e)
a	6 cm	6 cm		72 cm	
b	4 cm			8,4 dm	24 cm
m_a	3 cm	3,6 cm	4 cm		8 cm
m_b		5,4 cm	5 cm		
T			12 cm^2	42 dm^2	96 cm^2

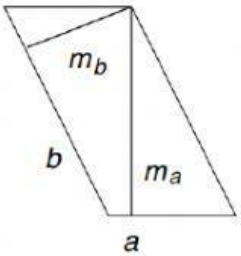

LIVEWORKSHEETS