TUTTO INVALSI 2

VERIFICARE LE COMPETENZE

PROVA 3C: FUNZIONI E DATI

LIVEWORKSHEETS

18. In quale riquadro le monete valgono 1 euro?

A. ☐ Nel riquadro 1.

B. ☐ Nel riquadro 2.

C. ☐ In nessuno dei due.

19. In quale riquadro le monete valgono 3 euro?

A. ☐ Nel riquadro 1.

B. ☐ Nel riquadro 2.

C. ☐ In nessuno dei due.

LIVEWORKSHEETS

20. Qual è il riquadro che non ha 20 euro esatti?



A. ☐ 1

B. ☐ 2

C. ☐ 3

21. Qual è il riquadro che non ha 50 euro esatti?



A. ☐ Il riquadro 1.

B. ☐ Il riquadro 2.

C. ☐ Nessuno dei due.

LIVEWORKSHEETS

25. **La freccia dice «È maggiore di». Qual è lo schema sbagliato?**

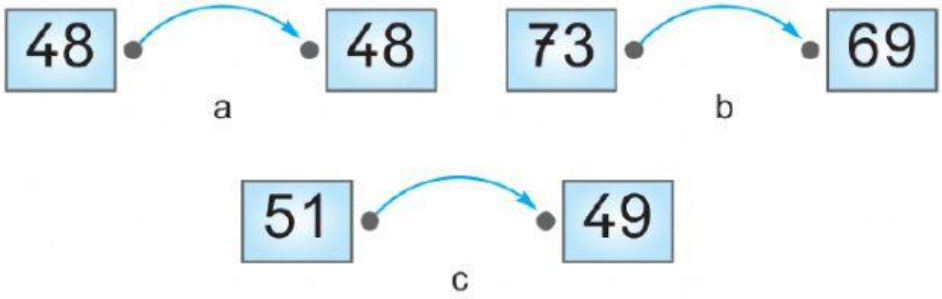

A. ☐ a
B. ☐ b
C. ☐ c

26. **La freccia dice «+ 10». Qual è lo schema sbagliato?**

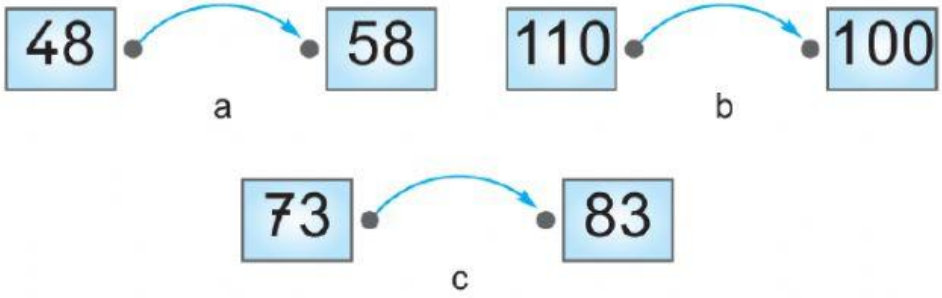

A. ☐ a
B. ☐ b
C. ☐ c

27. **La freccia dice «– 5». Qual è lo schema sbagliato?**

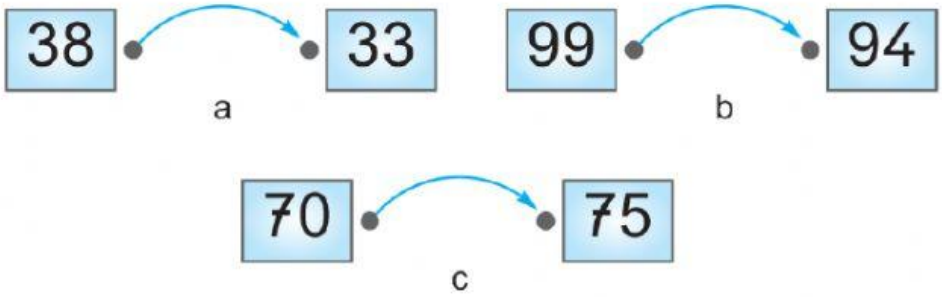

A. ☐ a
B. ☐ b
C. ☐ c

LIVEWORKSHEETS

DATI E PREVISIONI

28. **I bambini di una classe seconda hanno fatto un'indagine sugli animali che hanno in casa.**
Hanno raccolto i dati in una tabella, poi hanno disegnato un grafico.
Osserva la tabella.

I nostri animali

CANI	GATTI	CRICETI	PESCI
6	8	2	7

a. **Osserva ora il grafico: come vedi non è completo.**
Scrivi sopra i puntini i nomi degli animali che mancano.

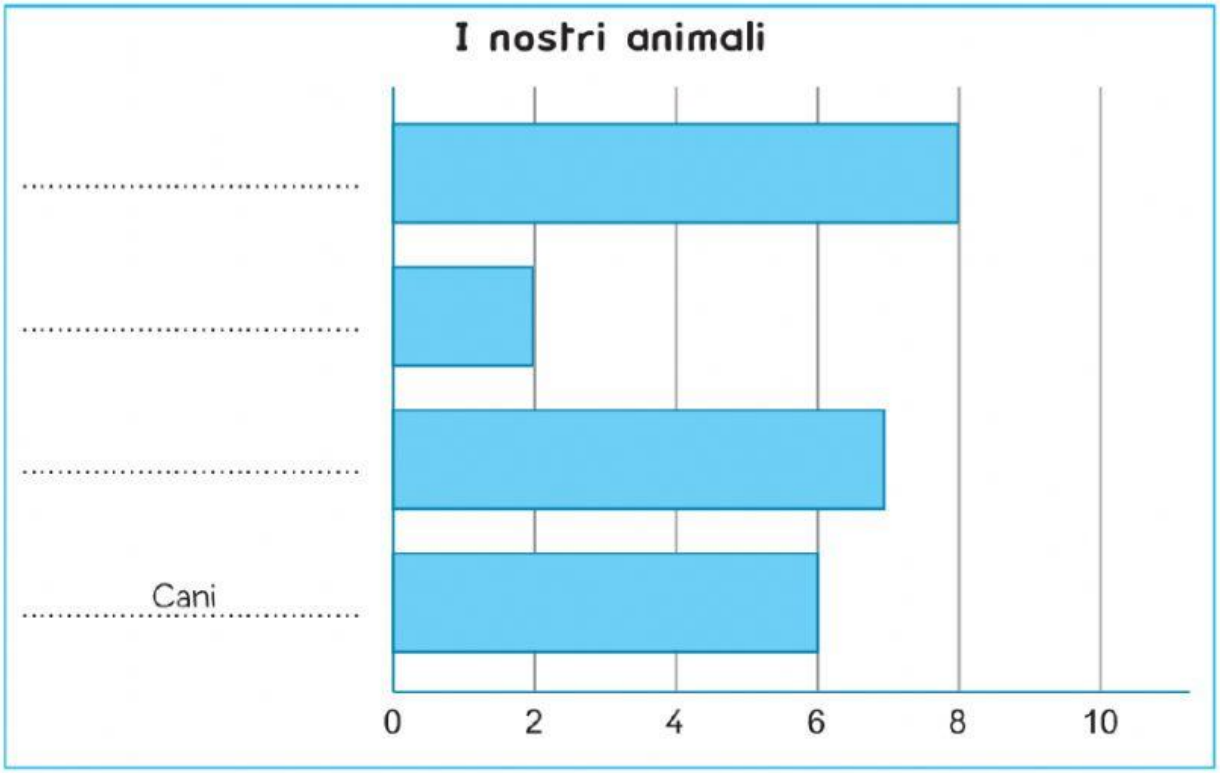

b. Quanti animali hanno in tutto i bambini della classe?

Risposta: .....

LIVEWORKSHEETS

29. Una bambina, a occhi bendati, prende una pallina dal vaso che vedi.

Prenderà una pallina blu?
Leggi come hanno risposto tre bambini.
Chi ha ragione?

A. ☐ Antonio

È certo!

B. ☐ Viola

È possibile!

C. ☐ Leonardo

È impossibile!

LIVEWORKSHEETS