BÀI TẬP CUỐI TUẦN 34

Bài 1. Tính nhẩm:

22 + 70 =

98 – 60 =

44 - 4 + 19 =

76 + 2 - 70 =

Bài 2. Điền dấu >; <; =?

35 – 10 37 - 20

43 + 10 43 – 30

78 – 20 87 – 10

39 + 50 80 + 9

Bài 3. Sắp xếp các phép tính có kết quả theo thứ tự từ bé đến lớn:

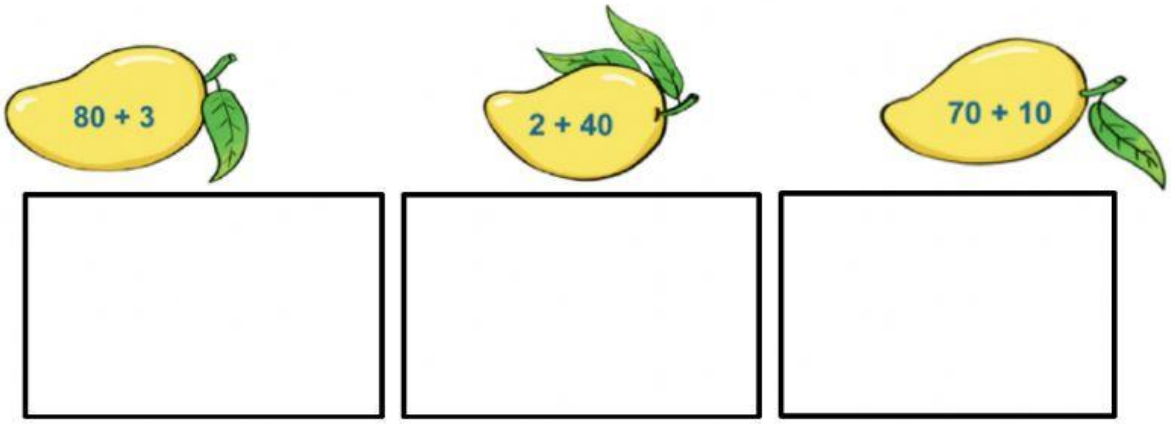

Bài 4. Nối hai phép tính có cùng kết quả:



LIVEWORKSHEETS

Bài 5. Đúng ghi Đ, sai ghi S:

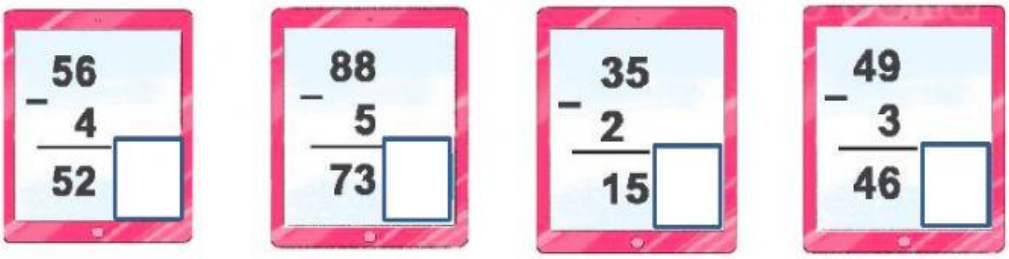

Bài 6.

Một đống gạch có 85 viên gạch. Rô – bốt đã lấy 50 viên để xây tường. Hỏi đống gạch còn lại bao nhiêu viên gạch?

Phép tính:

- Đống gạch còn lại viên gạch.

Bài 7.

Hãy tìm đường đi đến đồ ăn của mỗi chú ếch và tích vào chú ếch có thể ăn được hoa mướp:

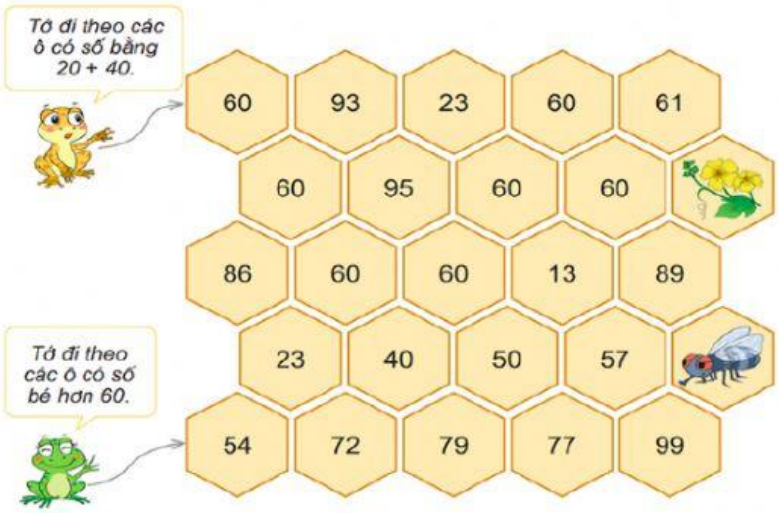

LIVEWORKSHEETS