У прямоугольника одна сторона равна 3 см,
а другая 1 см. Найди периметр.

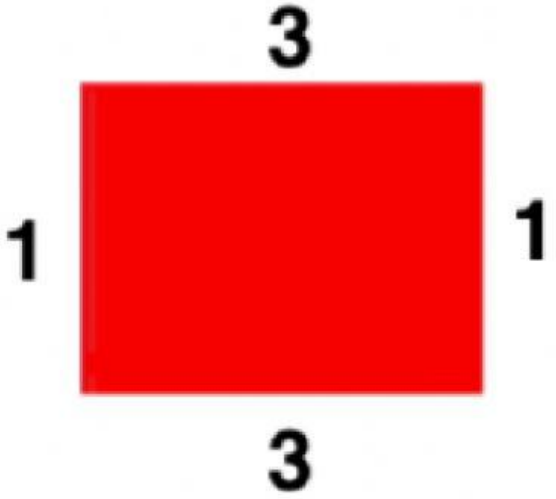

P =

Стороны пятиугольника равны 2 см.
Найди периметр.

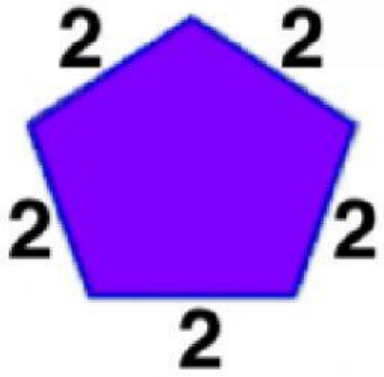

P =

LIVEWORKSHEETS

Каждая сторона треугольника равна 3 см.
Чему равен периметр?

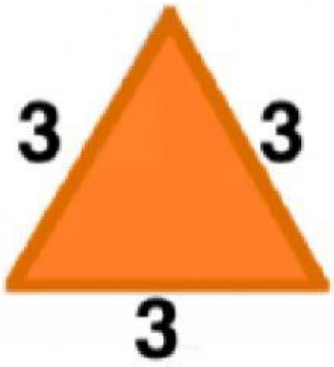

P =

Сторона ромба 1 см. Найди периметр.



P =

P =

LIVEWORKSHEETS