KINGDOM OF BAHRAIN
Ministry of Education
Al Busaiteen Intermediate Girls School

مملكة البحرين
وزارة التربية والتعليم
مدرسة البسيتين الإعدادية للبنات

تدريب على منصفات المثلث ٢

اختاري رمز الإجابة الصحيحة مما يأتي

في الشكل المجاور، ق∠ و ص ع يساوي:

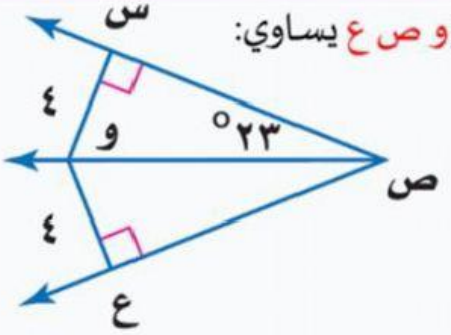

أ) °٤
ب) °٨
ج) °٢٣
د) °٢٦

في الشكل المجاور س يساوي ----

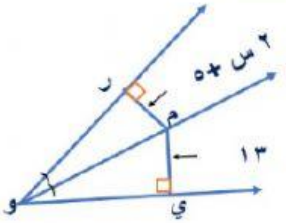

أ) ١٣
ب) ٨
جـ) ٥
د) ٤

في الشكل الآتي، ق∠ ع ر ت يساوي:

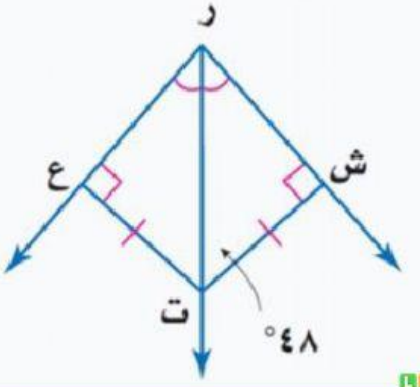

أ) °٤٢
ب) °٩٠
ج) °٤١
د) °٤٨

LIVEWORKSHEETS