KINGDOM OF BAHRAIN
Ministry of Education
Al-Busaiteen Intermediate Girls School

مملكة البحرين
وزارة التربية والتعليم
مدرسة البسيتين الإعدادية للبنات

قسم الرياضيات

القطع المتوسطة والإرتفاعات في المثلث

إختاري رمز الإجابة الصحيحة

في △ س ص ع ، إذا كان ص م = ٩ ، ح ع = ١٨ ، ي م = ٣ ،
ط م يساوي :

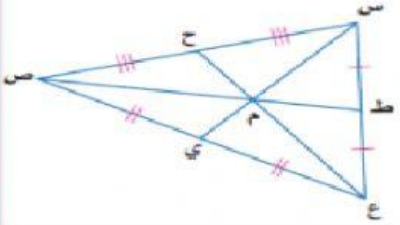

أ) ٤,٥ سم

ب) ٦ سم

ج) ١٣,٥ سم

في الشكل المجاور م ج = ١٢ سم فإن م و تساوي

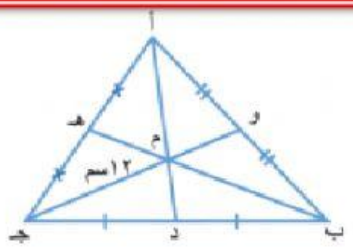

أ) ٦ سم

ب) ١٨ سم

ج) ٢٤ سم

في △ س ص ع ، إذا كان ص م = ٩ ، ح ع = ١٨ ، ي م = ٣ ،
س م يساوي

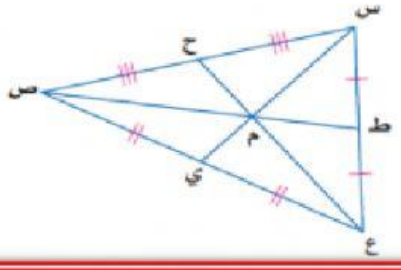

أ) ٩ سم

ب) ٦ سم

ج) ١٣,٥ سم

LIVEWORKSHEETS